职业能力倾向测验（C 类）试题

第一部分　常识判断

（共 20 题，参考时限 10 分钟）

根据题目要求，在四个选项中选出一个最恰当的答案。

1. 有关中国共产党第十九次全国代表大会说法错误的是（　　）

A. 大会的主题是：不忘初心，牢记使命，高举中国特色社会主义伟大旗帜，决胜全面建成小康社会，夺取新时代中国特色社会主义伟大胜利，为实现中华民族伟大复兴的中国梦不懈奋斗。

B. 十九大报告指出我国社会主义主要矛盾已经转化为人民日益增长的美好生活需要和不平衡不充分的发展矛盾

C. 此次大会是在全面建设小康社会决胜阶段、中国特色社会主义新时代关键时期召开的一次十分重要的大会

D. 此次大会选举了习近平、李克强、栗战书、王岐山、王沪宁、赵乐际、俞正声为中央政治局常委

2. 下列选项中，与“年年今夜，月华如练，长是人千里”的哲学寓意相同的是（　　）

A. 雨前初见花间蕊，雨后全无叶底花

B. 而今再到花红处，花在旧时红处红

C. 人意共怜花月满，花好月圆人又散

D. 花开堪折直须折，莫待无花空折枝

3. 某外国友人十分仰慕中国的道家文化。假如他来到中国，下列地方不能让他感受道家文化的是（　　）

A. 湖北武当山　　B. 四川青城山

C. 山西五台山　　D. 江西龙虎山

4. 丑末寅初又名三景春。是京韵大鼓历经几代艺人传唱不绝的传统唱段，从字面上来看作品描述的故事发生在（　　）左右。

A. 早上七点钟　　B. 中午十二点钟

C. 傍晚六点钟　　D. 凌晨三点钟

5. 下列关于蛋白质特征的叙述，错误的是（　　）

A. 蛋白质的组成单位是氨基酸

B. 蛋白质可以水解为脱氧核糖核酸

C. 蛋白质变性凝固过程是不可逆的

D. 组成蛋白质的基本化学元素是碳、氢、氧、氮

6. 近日热播的《延禧攻略》中的“反派角色”高贵妃在剧中擅长昆曲，总能通过“如怨如慕、如泣如诉”的表演讨得皇帝欢心。昆曲深合了唱念做打、舞蹈及武术等，以曲词典

官方电话：400-036-6665　官方客服：xzhuatu14
拉萨华图：拉萨新藏大对面300 米处华图教育

雅、表演细腻著称，被誉为百戏之祖”。下列属于有影响而又经常演出的昆曲剧目的是（　　）

A. 《牡丹亭》　　B. 《天仙配》

C. 《刘海砍樵》　　D. 《霸王别姬》

7. 下列与酒有关的说法，正确的是（　　）

A. 伏特加、威士忌、白兰地均属干高浓度烈性酒

B. “葡萄美酒夜光杯，欲饮琵琶马上催“出自王维的诗作

C. 酒备受文人墨客青睐，是一种典型的蒸馏酒

D. 陆羽善于酿酒，制酒业将其奉为“酿酒始祖”

8. 下列诗句与其所描写对象对应错误的是（　　）

A. 日幕苍山远，天寒白屋贫--雪

B. 出时山眼白，高后海心明--月

C. 沾衣欲湿杏花雨，吹面不寒杨柳风--风

D. 嫩绿柔香远更浓，春来无处不茸茸--花

9. 关于中国的古代文学，下列说法不准确的是（　　）

A. 《国语》--第一部国别体史书，相传为左丘明所著

B. 《史记》第一部纪传体通史，被鲁迅誉为“史家之绝唱，无韵之离骚”

C. 《资治通鉴》我国第一部编年体通史，司马迁主编，以政治、军事和民族关系为主兼及经济、文化、和历史人物评价，目的是通过对事关国家盛衰、名族兴亡的统治阶级政策的描述警示后人

D. 《水浒传》中国第一部用白话文写成的长篇小说，施耐庵著

10. 毛泽东主席的许多诗词中描写了当时的历史事件，以下诗词中所反映的历史事件按照发生的先后顺序排序正确的是（　　）

①秋收时节暮云愁，霹雳一声暴动

②金沙水拍云崖暖，大渡桥横铁索寒

③钟山风雨起苍黄，百万雄师过大江

④一桥飞架南北，天堑变通途

A. ②①③④　　B. ②①④③

C. ①③②④　　D. ①②③④

11. 花性及人性，花品及人品，古代文人常常借花喻人。正如诗人龚自珍借花（　　）来抒发自己的报国情怀。

A. “乱入池中看不见，闻歌始觉有人来”

B. “接天莲叶无穷碧，映日荷花别样红”

C. “落红不是无情物，化作春泥更护花”

D. “零落成泥碾作尘，只有香如故”

12. 以下有关成语的典故说法正确的是（　　）

A. “成也萧何，败也萧何”是讲述汉高祖刘邦的成败

B. “怒发冲冠”来自于晏婴出使楚国

C.“洛阳纸贵”是因西晋左思的《三都赋》广被传抄

D. “沧海桑田”中的“沧海”原指洱海

13. 下列有关生活常识的表述中，不正确的一项是（　　）

A. 女性比男性更易患抑郁症

B. 水果榨汁喝会减少对水果中维生素 C 和纤维素的摄取

C. 运动时脚扭伤肿了，应该进行热水敷应急处理

D. 打呵欠是一种深呼吸运动，它会让人比平常更多的吸进氧气和排出二氧化碳

14. 古人有时不直接说出某人多少岁或自己多少岁，而是用一种与年的有关的称谓来代替。下列各称谓，按年龄从小到大的顺序排列正确的是（　　）

A. 幼学—黄口—弱冠—而立

B. 志学—及笄—碧玉年华—金钗之年

C. 期颐—耄耋—耳顺—天命

D. 髫年—龆年—幼学—豆蔻年华

15. 下列说法中不正确的是（　　）

A. 眨眼可以润湿眼球，正常人每分钟要眨眼十几次

B. 小孩多理发可以促进头发长得更快，更密、更粗壮

C. 当我们停止运动后肌肉会变软，但不会变成脂肪

D. 眼泪中溶有许多不同的盐，所以是咸的

16. 关于“螳螂捕蝉，黄雀在后”，下列说法错误的是（　　）

A. 蝉、螳螂和黄雀都是消费者

B. 螳螂和黄雀的行为都属于先天性行为

C. 螳螂、蝉和黄雀组成了一个生态系统

D. 蝉和螳螂属于节肢动物，黄雀属于鸟类

17. 5g 是指第五代移动通信技术，他属于 4g 网络的升级版，工信部预计我国首款 5g 手机将于 2019 年推出，5g 手机传递信息靠的是（　　）

A. 电磁波　　B. 红外线

C. 超声波　　D. 次声波

18. 下列哪类食物为酸性食物（　　）

A. 大白菜　　B. 牛奶

C. 鸡蛋　　D. 茶叶

19. 下列关于医学常识的说法正确的是（　　）

A. 如果人体内缺乏维生素 E 易患夜盲症

B. 现有抗生素药物对超级细菌不起作用

C. 贫血指血液中红细胞和白细胞数量低于正常水平

D. 手足口病的最主要传播途径是血液传播和母婴传播

20. 下列关于第一次科技革命的说法，不正确的有（　　）

A. 首先发生在英国，并以英国为主体

B. 以轻工业为主导

C. 以内燃机和交通工具创制为主要标志

D. 技术发明主要源于实践经验

第二部分　言语理解与表达

（共 25 题, 参考时限 20 分钟）

本部分包含表达与理解两方面的内容。请根据题目要求，在四个选项中选出一个最恰当的答案。

21. 习近平总书记鲜明指出："文物____灿烂文明，____历史文化，____民族精神，是老祖宗留给我们的宝贵遗产，是加强社会主义精神文明建设的深厚滋养。"

填入画线部分最恰当的一项是：（　　）

A. 承担　传承　维系　　B. 承载　传播　维持

C. 承担　传播　维持　　D. 承载　传承　维系

22. 当前，各级政府和机构在处置"僵尸企业"上可谓_____，但仍有些地方政府因种种考虑，千方百计为之延续生命。

填入画线部分最恰当的一项是：（　　）

A. 不遗余力　　B. 费尽心机

C. 全力以赴　　D. 全心全意

23. 20 世纪 60 年代，中国工业基础薄弱，要建设尖端复杂的卫星地面观测系统，在外人看来犹如_____。

填入画线部分最恰当的一项是：（　　）

A. 胡思乱想　　B. 痴人说梦

C. 想入非非　　D. 子虚乌有

24. 诚如当初的滴滴快的、易到以及现在的共享单车，前期获取用户最普遍的手段便是烧钱，通过免费或者降价的方式吸引用户使用。_____，诸多共享充电宝企业最近也开始了降价活动。

填入画线部分最恰当的一项是：（　　）

A. 不足为奇　　B. 无独有偶

C. 殊途同归　　D. 不谋而合

25. 用法治思维和法治方式推进改革，把改革主张____成法治规范，让改革的"破"与法治的"立"、改革的"进"与法治的"稳"_____、相互促进，这正是今天中国的治理新路。

填入画线部分最恰当的一项是：（　　）

A. 转型　相映成趣　　B. 转变　一以贯之

C. 转换　相辅相成　　D. 转换　一脉相承

26. _____的中华优秀传统文化源远流长，____着中华民族最深层的精神追求，代表着中华民族独特的精神标识，是我们在世界文化激荡中站稳脚跟的根基。

填入画线部分最恰当的一项是：（　　）

A. 种类繁多　　沉积　　B. 名目繁多　　累积

C. 浩如烟海　　沉淀　　D. 博大精深　　积淀

27. 半个月一趟的班列，把内蒙古、京津冀乃至江浙地区的外贸产品和大宗货物_____地运往国外，并将俄罗斯和欧盟等国家的汽车配件、木材、食品、小家电等货物通过赤峰保税物流中心集散至全国各地，____了一条连接国内外的黄金物流通道。

填入画线部分最恰当的一项是：（　　）

A. 连绵不断　　拓展　　B. 层出不穷　　开发

C. 络绎不绝　　开拓　　D. 源源不断　　开辟

28. 大草原上世世代代的牧羊人，要____现代养殖业的红利，不能迷信“养了几辈子羊”得来的经验理念、形成的路径依赖，而得主动____生态约束、市场规律的检验。

填入画线部分最恰当的一项是：（　　）

A. 得到　　承受　　B. 收获　　迎接

C. 获得　　接纳　　D. 取得　　接受

29. 长期以来，过度包装屡受诟病，为何仍_____呢？很大程度是商家_____。精致的外观，华美的装饰，更能抓人眼球，让消费者在众多商品中多看一眼。

填入画线部分最恰当的一项是：（　　）

A. 大行其道　　推波助澜　　B. 猖獗一时　　火上浇油

C. 大张旗鼓　　煽风点火　　D. 蔚然成风　　无事生非

30. 包装豪华了，商品显得更上档次，身价自然_____，赚取的利润也更多。这背后的商业逻辑，不难理解。

填入画线部分最恰当的一项是：（　　）

A. 事随境迁　　B. 水涨船高

C. 居高不下　　D. 居高临下

31. 哲人有言，“人的天性像是野生的花草，读书像是修剪移栽。”某种意义上，读书给人带来的，除了知识的增长，更重要的恐怕是心境的提炼和升华。成就大学问，实现“立德、立功、立言”这“三不朽”的人生追求，或许并不是所有读书人都能够达到的，但读书所带来的精神境界的提升，却是每一个人可以追求的。

这段文字的主要意思是（　　）

A. 读书能增长人的知识

B. 读书能使人的内心世界和精神世界得到提升

C. 读书人不能达到“三不朽”的人生境界

D. 人的天性需要读书进行修剪

32. 在现实生活中，重发展、轻保护的观念在一些地方仍然根深蒂固，环保陷入了“说起来重要，做起来不要”的困境。在这样的背景下，建立中央环保督察长效机制，正是要以制度创新为生态文明建设保驾护航，为环境保护的贯彻落实提供制度保障。正如中央深改组会议指出的，“建立环保督察工作机制是建设生态文明的重要抓手”。

作者想表达的主要意思是（　　）

A. 很多地区依然存在不重视环保的观念

B. 现在环保工作已经陷入困境

C. 应建立长效的环保监督机制

D. 需提供环境制度保障为环境问题保驾护航

33. 提到电子音乐，人们第一个想到的便是“动次打次”这种电子舞曲音乐。事实上，从计算机音乐之父马克斯·马修斯 1957 年发明第一个计算机音乐程序算起，计算机音乐已经走过了 60 年的历程。从最开始通过重新剪辑、拼接磁带中的录音，到如今利用电脑、手机等对音频进行实时处理，科技的不断发展令电子音乐的控制手段变得越来越先进。

这段文字的主要意思是（　　）

A. 科技让电子音乐越来越先进

B. 电子音乐已经发展了半个多世纪

C. 电子音乐就是电子舞曲音乐

D. 计算机音乐最开始只能通过剪辑拼接得到

34. 本次大会展出的各种互动装置，就让人们体会到艺术、科技与创意的巧妙融合。以其中一件作品“扫描线：冰点”为例。这是一首利用 LED 灯箱透写台、摄影机、笔记本、MIDI 控制器与自制软件完成的交互表演作品。当人们移动透明纸张时，可以创造出不同的轨迹，而灯箱透写台扫描这些轨迹后会根据亮度影响声波。换言之，这些音乐是通过纸张、灯光、轨迹创造而成的。

对文段概括最准确的是：（　　）

A. 互动装置体现出科技与多种元素的融合

B. 科技可以让 LED 灯箱创造出不同的轨迹

C. 音乐是通过纸张、灯光、轨迹创造而成的

D. 大会展出了很多互动装置

35. 在图书稀缺的年代，一本书意味着精神意义上的远方，我们透过书本认识五星红旗、见到天安门、看见世界。如今，互联网的普及让世界近在眼前，但“书籍是人类进步的阶梯”这句话并不过时。

文段意在表达（　　）

A. 在物质稀缺的时代读书是一件奢侈的事情

B. 当今世界读书仍然还有非常重要的意义

C. 读书可以让我们认识世界

D. 如今互联网普及读书已经没有必要

36. “习近平总书记指出，保护文物功在当代、利在千秋。”吕舟说，“在鼓浪屿申遗过程中，人们逐渐认识到：只有发自内心重视、认可、挖掘自身文化，才能更好地形成保护上的长效机制。”

文段的中心意思是：（　　）

A. 保护文物对现代人和后代人都有很多益处

B. 应形成文物保护长效机制

C. 内心的重视、认可和对文化的深入挖掘是保护文物的前提

D. 内心认同和重视就可以保护好文物

37. 未成年人自我控制能力弱，过度沉迷网络的确会影响其健康成长。但是，一些家长在发现问题后，不反思自身的教育责任，总想借助第三方的力量解决问题。其实，治疗“网瘾”最有效的方法莫过于良好的家庭教育，沉迷于网络的未成年人，往往生活在一个成员之间沟通难言顺畅、关系并不和睦的家庭之中。如果不从根本上改善家庭环境，提高家庭教育水平，让未成年人寻求在虚幻网络解脱的土壤依然存在。

作者意在强调（　　）

A. 未成年人还会沉溺网络

B. 网络成瘾是因为家庭家长的教育缺失

C. 良好的家庭教育是治疗网瘾的最佳手段

D. 未成年人可以在网络中寻求解脱

38. 近日，美国贸易代表宣布在涉及技术转让、知识产权和创新领域对中国正式启动贸易调查，引发全球哗然。海内外分析人士认为，中美两国经济体量大、互补性强，多年来的经贸合作为两国民众带来了实实在在的利益。然而基于“零和博弈”思维的贸易战却没有赢家。专家指出，美国对华“抢饭碗”的指责并不公正，其发出贸易战威胁的实质是将收入分配不公、经济结构失衡等国内问题强行做“外部归因”。实际上，挑起中美贸易战，不仅不能解决上述经济难题，而且还可能引发贸易伙伴的反制，拖累美国乃至世界经济复苏，最终将被归入“错误决策”的档案。

文段的主要观点是（　　）

A. 美国对中国的贸易战争会引起贸易伙伴的抵制且对美国自身和全世界经济都有影响

B. 美国对中国发起贸易战

C. 贸易战源于美国的收入分配不公平和经济失衡

D. 中美贸易之战不能解决美国的经济问题

39. 除了设置雷打不动的科学课外，举办“科学日”活动也是俄中小学教学大纲中的一项重要内容。中小学重视科学离不开全社会重视科学的社会环境。1999 年，俄罗斯政府将每年的 2 月 8 日定为“科学日”，之所以选择这个日子，是因为彼得大帝曾于 1724 年 2 月 8 日下令设立俄罗斯科学院。国家有“科学日”，每个学校也有自己的“科学日”。全俄各地中小学每学期都会根据各自的情况举办“科学日”活动。

这段文字的主要意思是（　　）

A. 中小学必须设置科学课程

B. 科学日活动是俄罗斯很重要的科学社会环境

C. 俄罗斯很久以前就开始举办科学日活动

D. 彼得大帝很重视科学

40. ①让所有孩子建立起清醒的底线意识和规则意识，才是负责任的做法

②遏制校园欺凌，法治思维不可或缺

③依法惩戒是对行为的末端治理，并不能告诉学生应该遵循何种行为规范

④近期，校园欺凌成为热议话题。孩子是非观念并不清晰，重视规则教育十分必要

⑤但过于依赖惩治，可能让复杂问题简单化、线条化

官方电话：400-036-6665　官方客服：xzhuatu14
拉萨华图：拉萨新藏大对面300 米处华图教育

以上 5 个句子重新排列正确的是（　　）

A. ⑤③①④②　　B. ①④②⑤③

C. ④①⑤③②　　D. ④②⑤③①

41. ①“80 年代的名诗人”和“生于 80 年代的诗人”面对面，构成了一幅颇具时代感的对话图景

②今天，当 80 后诗人们齐聚一堂，一张张不再青涩的脸，令人不禁感慨时光的流逝

③同时到会的，还有舒婷等重磅诗坛前辈，对于 80 后诗人们来说，“读着他们的诗长大”可以说毫不夸张

④“80 后”一度也成为个性、“叛逆”的代名词

⑤而 80 后诗人，则成了“生于诗而落脚于诗”的群体

⑥“80 年代”是一个诗意与浪漫张扬的年代

⑦两者之间似乎冥冥中有着一种联系

将以上 7 个句子重新排列，语序正确的是（　　）

A. ④①⑥③⑦②⑤　　B. ⑥④⑦⑤②③①

C. ④⑥①⑦②③⑤　　D. ⑥④⑤⑦③②①

42. ①然而，随着日益掌握权力，他们逐步放松了对自己的要求，最终积小错为大错，积小恶成大恶

②前不久，多名落马高官的忏悔书或处分决定公开展示，引发不少人的思考

③其实，很多贪腐分子初入官场时，也曾严格要求自己，不敢越雷池一步

④否则，一旦思想迷航、行为迷失，只会误入歧途，并在错误的道路上越走越远

⑤习惯中也藏着魔鬼，令人不得不思之、慎之

⑥“作之不止”，关键是要向上向善，将好的品行、好的习惯贯穿始终

将以上 6 个句子重新排列，语序正确的是（　　）。

A. ⑥④②③①⑤　　B. ②③①⑤⑥④

C. ⑥②③⑤①④　　D. ②③⑤①⑥④

43. ①人工智能不仅是一个技术问题，也是一道治理考题

②在这个意义上，技术进步是一柄“双刃剑”，一方面可以造福人类

③处理好人工智能在法律、安全等方面提出的新课题，需要完善治理，让技术创新运行在制度的轨道上

④然而并没有法律对此作出明确规定，当人们向算法让渡了部分决策权，也会让归责成为难题

⑤以无人驾驶技术为例，在全球范围内已出现多起事故，甚至造成人员伤亡

⑥另一方面在缺乏规范和制约的情况下，也有可能损害社会公共利益

将以上 6 个句子重新排列，语序正确的是（　　）。

A. ①⑥②⑤④③　　B. ⑤④②①⑥③

C. ①⑤④②⑥③　　D. ②⑥①④③⑤

44. _____：采集狩猎人睡眠的时间并不比现代都市人长，每天只睡 5.7～7.1 个小时。他们的睡眠很有规律，平均在日落后 3.3 小时入眠，通常在第二

官方电话：400-036-6665　官方客服：xzhuatu14
拉萨华图：拉萨新藏大对面300 米处华图教育

天日出前醒来，这意味着上午能获得大量日照，并在 9 点达到峰值。他们的睡眠还有明显的季节变化，冬天的睡眠时间比夏天长 53～56 分钟，相比之下，现代人哪怕长期服用安眠药，最多也不过增加 15 分钟。

填入横线部分最合适的句子是（　　）

A. 温度使得现代人的睡眠时间更短

B. 采集狩猎人的睡眠形态接近于人类睡眠的出厂版本

C. 采集狩猎人的睡眠形态不同于现代人类睡眠

D. 现代人的睡眠质量越来越差

45. 梦想可以有，_____。生活中，大多数人是平凡的，平凡没有什么不好，平凡自有它的幸运和乐趣。在我们拥有梦想的时候，通常都是一厢情愿的，对生活和社会还不了解，随着时间的流逝，与生活的朝夕相处，逐渐会感到那些梦想越来越远，有人会因此郁郁寡欢，有人会开始淡忘梦想，而很不幸的是其间有可能会看到某个电影或者某篇心灵鸡汤，里面大力地描述和鼓吹一个人是如何历经千辛万苦而最终实现了梦想的，而你的心再一次被唤醒，开始反思或是抱怨目前的处境。

填入横线部分最合适的句子是（　　）

A. 通过努力还是能够实现的　　B. 但大部分梦想是实现不了的

C. 只要努力就能够实现　　D. 只有经过不懈的努力才能实现

第三部分　判断推理

（共 35 题，参考时限 25 分钟）

一、图形推理。请按每道题的答题要求作答。

请开始答题：

46.从所给选项中，选择最适合的一个填入问好处，使之呈现一定的规律性（　　）。

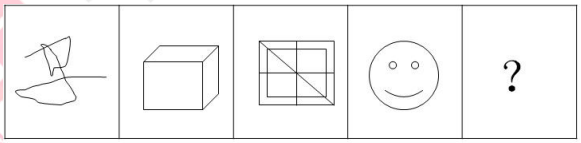

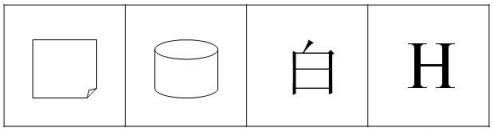

A　B　C　D

47.从所给选项中，选择最适合的一个填入问好处，使之呈现一定的规律性（　　）。

官方电话：400-036-6665　官方客服：xzhuatu14
拉萨华图：拉萨新藏大对面300 米处华图教育

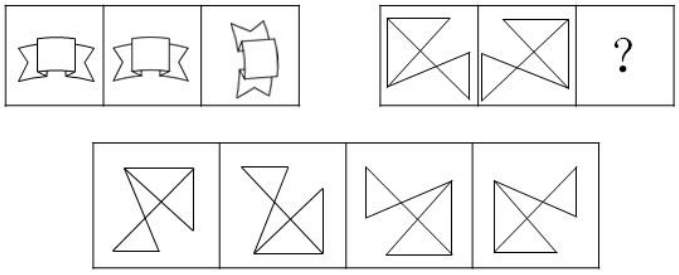

A B C D

48.从所给选项中，选择最适合的一个填入问好处，使之呈现一定的规律性（　　）。

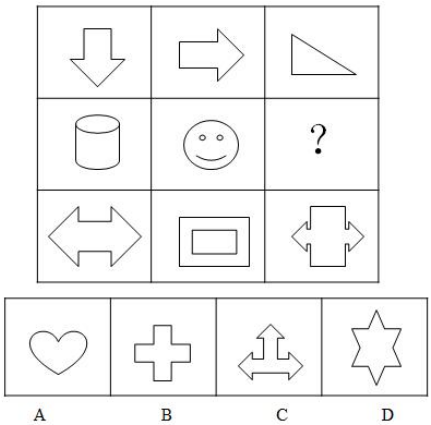

A B C D

49.从所给选项中，选择最适合的一个填入问好处，使之呈现一定的规律性（　　）。



A B C D

50.从所给选项中，选择最适合的一个填入问好处，使之呈现一定的规律性（　　）。

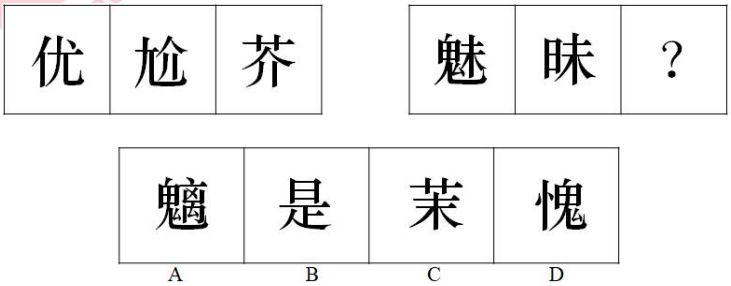

51.将下面六个图形分为两类，使每一类图形都有各自共同的特征或规律，分类正确的一项是：（　　）。

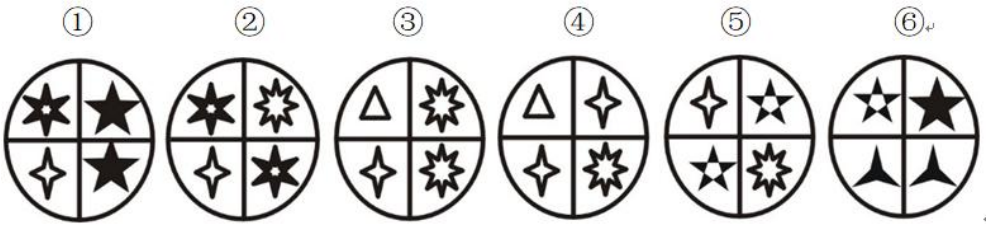

A. ①③⑥，②④⑤　　B. ①②⑥，③④⑤

C. ①④⑤，②③⑥　　D. ①⑤⑥，②③④

52.给定立体图形有一个六面体和四面体构成，下列哪一项不可能是它的截面？（　　）

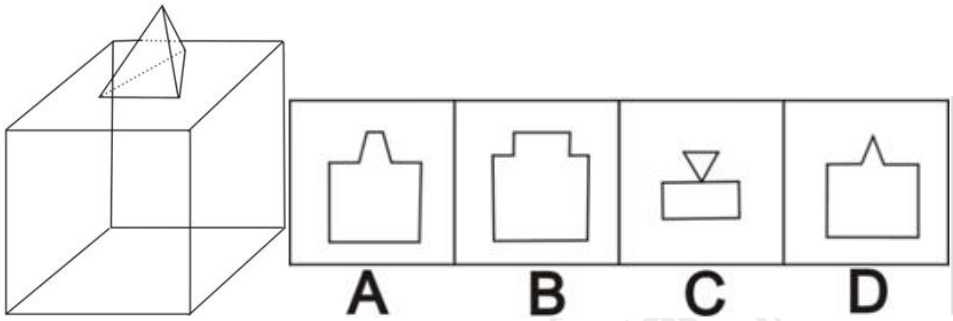

53.左边给定的是正方体的外表面展开图，下面哪一项能由它折叠而成？（　　）

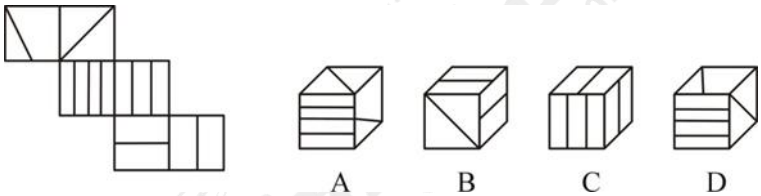

54.左边给定的是正方体的外表面展开图，下面哪一项能由它折叠而成？（　　）

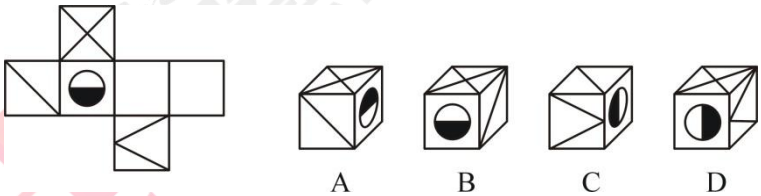

55.左边给定的是正方体的外表面展开图，下面哪一项能由它折叠而成？（　　）

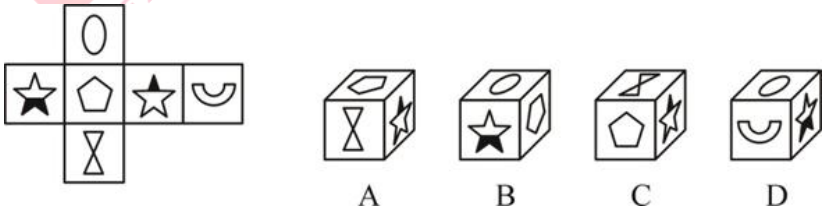

二、定义判断。每道题先给出定义，然后列出四情况，要求你严格依据定义，从中选出一个最符合或最不符合该定义的答案。注意：假设这个定义是正确的，不容置疑的。

请开始答题：

56.“丧文化”，是指一些 90 后的年轻人，在现实生活中，失去目标和希望，陷入颓废和绝望的泥沼而难以自拔的活着；它是流行于青年群体当中的带有颓废、绝望、悲观等情绪

官方电话：400-036-6665　官方客服：xzhuatu14
拉萨华图：拉萨新藏大对面300 米处华图教育

和色彩的语言、文字和图画，是青年亚文化的一种新形势。但遭遇压力和挫折、消极郁闷的这种“丧文化”其实自古就有，并写下诗句流芳百世。

以下诗句属于“丧文化”的是（　　）。

A. 沉舟侧畔千帆过，病树前头万木春

B. 剪不断，理还乱，是离愁，别是一般滋味在心头

C. 梅须逊雪三分白，雪却输梅一段香

D. 衣带渐宽终不悔，为伊消得人憔悴

57.拖延症是指自我调节失败，在能够预料后果有害的情况下，仍然把计划要做的事情往后推迟的一种行为。拖延症总是表现在各种小事上，但日积月累，特别影响个人发展。

以下符合拖延症的是（　　）。

A. 小芳爱看电视剧，每周末家庭作业都推迟到最后草草了事，经常因为作业错误率被老师批评

B. 小明上个月本来要回家探亲，因为朋友的到来没去成，于是计划这周末回家，但突然被通知周末要加班，回家计划再次被推迟到了下个月

C. 小张平时工作努力，最近心情不佳，做事心不在焉，导致工作没按时完成

D. 小华背井离乡多年，终于回到了家乡，但因近乡情怯，一直在市里徘徊，迟迟没有回镇里

58.长尾理论是指，只要产品的存储和流通的渠道足够大，需求不旺或销量不佳的产品所共同占据的市场份额可以和那些少数热销产品所占据的市场份额相匹敌，甚至更大。

根据上述定义，下列最不能体现长尾理论的是（　　）。

A. 卷皮网折扣是一家专门经营折扣商品的 B2C 企业，通过帮助众多商家处理商品，获得巨大成功

B. Facebook 是全球最大的门户网站，支撑其业绩的主要是广告，广告所获得的收入在总收入中比例越来越大

C. H&M 一年中推出大量不同种类的时装，每一款的时装其实量不大，但凭借多款式小批量的营销策略成功

D. 当当网上的商品书中，部分书目销量小但是凭借多样化的种类积少成多，占据了总销量的一半

59.帕累托最优是指，资源的任何重新分配已经不可能使任何一个人的境况变好而不使一个人的境况变坏；帕累托改进是指，如果资源的重新分配能够在不使任何人情况变坏的前提下，使得至少一个人变得更好。

根据上述定义，以上属于帕累托改进的是（　　）。

A. 甲、乙两人现有财富分别为 20 和 30，资源的再配置使两人的财富发生了变化，甲的财富变为了 25，乙的财富变为了 20

B. 为保护环境和避免引起不必要的灾害，各城市出台了禁鞭（禁止放鞭炮）政策

C. 由于总有一小部分订了机票的旅客临时取消旅行计划，为了使航班上座率越高越好，航空公司采用超额售票术，若确实超载，则对不急于出发的旅客给予免费机票进行补偿

D. 为调控武汉日益上涨的房价，武汉市出台规定，要求没有住房的非武汉籍家庭在武

汉购房须提供连续 2 年以上缴纳社会保险及个人所得税的证明

60.控制是指按照既定的标准，检查和衡量管理工作是否按计划进行，若有偏差就要分析原因，发出指令，并做出改进，以确保组织目标的实现的管理活动过程。可分为事前控制和事中控制和事后控制。事前控制是指，在企业的经济活动进行之前进行控制，防止组织使用不合要求的资源，保证组织的投入在数量和质量上达到预定的目标的控制。

根据上述定义，以下属于事前控制的是（　　）。

A. 亡羊补牢

B. 唐太宗即位之初，依据德才兼备和当时官员的职责制定了选拔和考核官员的严格标准

C. 小明昨天淋了雨，早上起来感觉鼻塞和轻微咳嗽，于是他立马煮了一碗姜茶，喝完之后果然感觉好了很多，下午就恢复正常了

D. 房子装修完之后，芳芳突然发现客厅的装修与整体不搭配，于是立马进行了改正

三、类比推理。每道题先给出一组相关的词，要求你在备选答案中找出一组与之在逻辑关系上最为贴近、相似或匹配的词。

请开始答题：

61.提高：效率

A. 增快：收入　　B. 增强：国力

C. 减少：压力　　D. 加快：效益

62.羽绒服：鸭绒

A. 轮胎：汽车　　B. 杯子：玻璃

C. 眼镜：镜片　　D. 衣服：裤子

63.支付宝：支付

A. 补钙：钙片　　B. 售货机：售货员

C. QQ：发邮件　　D. 白醋：调味

64.飞机：天空：乘客

A. 旅馆：房间：宾客　　B. 车间：机器：工人

C. 田地：庄稼：农民　　D. 海洋：潜艇：士兵

65.孔子：子贡

A. 李白：白居易　　B. 市长：厅长

C. 苏格拉底：柏拉图　　D. 何炅：黄磊

66.高瞻远瞩：鼠目寸光

A. 好高骛远：脚踏实地　　B. 七月流火：天高气爽

C. 全力以赴：三心二意　　D. 临渊羡鱼：痴心妄想

67.《丰乳肥臀》：莫言

A. 《白夜行》：东野圭吾　　B. 《小妇人》：莫泊桑

C. 《挪威的森林》：渡边淳一　　D. 《威尼斯商人》：安东尼欧

68.懂法：律师

A. 努力：成功　　B. 会厨艺：厨师

C. 会跳舞：演员　　D. 18 岁：选举权

69.玫瑰　对于（　　）　相当于　（　　）　对于　热情

A. 鲜花；开心　　B. 美丽；大方

C. 爱情；红色　　D. 牡丹；态度

70.高雅　对于　（　　）　相当于　（　　）　对于　下里巴人

A. 意兴阑珊；活泼　　B. 曲高和寡；偏远

C. 高山流水；哀伤　　D. 阳春白雪；通俗

四、逻辑判断。每道题给出一段描述，这段陈述被假设是正确的，不容置疑的。要求你根据这段描述，选择一个答案。

请开始答题：

71.王磊爱打游戏，成绩不好。他爸爸对他说："除非你不打游戏，不然每月的零花钱将被取消"。王磊当即保证，一定会戒掉游戏。

由此推知：（　　）。

A. 王磊的零花钱一定不会被取消

B. 王磊不想要零花钱

C. 王磊的零花钱一定会被取消

D. 王磊的零花钱可能不会被取消

72.吸烟带给健康的危害严重且长远，如果吸烟有一千个理由，那么拒绝吸烟可以有一万个理由。除了吸烟本身伤身外，让别人吸二手烟也是一种非常不文明的行为。因此每个人都应该身体力行，拒绝吸烟，维护自己和他人的健康。

以下选项最能削弱上述结论的是（　　）。

A. 吸烟可以放松身心，偶尔吸烟对健康并没有多大影响

B. 吸烟不仅对人的身体健康有害，也有可能不利于人际沟通

C. 除了让别人吸二手烟以外，乱闯红灯也是不文明的行为，我们应该坚决抵制

D. 长期吸烟可能会得肺癌

73.为了庆祝母亲节，甲、乙、丙三兄妹一人给妈妈买了一束花，分别为百合、丁香、康乃馨。爸爸对他们买的花的品种进行了猜测：甲买的是康乃馨，乙不会买丁香，丙不会买康乃馨。

现得知爸爸只猜对了其中一个，由此可知：（　　）。

A. 甲买的丁香，乙买的康乃馨，丙买的百合

B. 甲买的丁香，乙买的百合，丙买的康乃馨

C. 甲买的康乃馨，乙买的丁香，丙买的百合

D. 甲买的百合，乙买的丁香，丙买的康乃馨

74.有部分家长表示，应取消中学生上晚自习的规定，因为他们认为上晚自习给孩子造成了压力，反而会降低学生成绩。某中学为观察上晚自习对学生成绩的影响，特做了一组实验：该校选取 20 名学生，有 10 名让他们上晚自习，10 名不让他们上晚自习，一个月后，发现上晚自习的学生成绩考试分数更高。因此，该校认为上晚自习有助于提高学生成绩，不

应该取消。

为使上述论证成立，必须补充以下哪项作为前提？（　　）

A. 上晚自习的学生周末还参加了辅导班

B. 上晚自习的学生白天上课注意力更为集中

C. 选取的 20 名学生智力水平相当，且实验前他们学习成绩相差无几

D. 在实验过程中，上晚自习的时间每天要固定不变

75.俗话说：人生有三大错觉，有人敲门，手机在响，有人暗恋你。而对于感觉手机在响或在震动这个问题现如今尤为明显，研究发现，80%的手机用户都会有不同程度的震动幻觉问题。紧张和繁忙的工作是导致这种问题的主要原因，当精神极度紧绷的时候，人会变得敏感而神经质，稍有动静就会反应很大。大家应该多休息，不要过度依赖手机，学会采用各种方式放松心情。

由此可以推出（　　）。

A. 手机震动幻觉不会发生在学生党身上

B. 听到有人敲门不用管，因为这是你的错觉

C. 上班族不能紧张、繁忙的工作，不然会产生各种幻觉

D. 大家不要总拿着手机，多放松心情有利于缓解手机震动幻觉

76.某公司因为拓展业务，现需要人出差。对于出差的人选有这样的要求：（1）要么是男性出差，要么是女性出差；（2）如果小张不出差，那么小李出差；（3）只有小钱不出差，小赵才出差；（4）已知：小赵，小钱和小张都是男性，小李是女性，且小钱出差了。

由此推知，赵、钱、张、李中出差的人是：（　　）。

A. 小钱和小赵　　B. 小钱和小李

C. 小钱和小张　　D. 小钱

77.某公司在年底的优秀员工评比中，进行抽样调查，推选最受欢迎的员工，结果老张得到 80%以上的支持，得票最多。据此，该公司认为最受欢迎的员工是老张。

以下哪项如果为真，最能削弱该公司的结论？（　　）

A. 这次的调查对象大部分来自老张所在的部门

B. 多数的被调查者并不关注候选人的工作

C. 该公司有部分人没有在调查中发表自己的意见

D. 这次调查问卷在设计上把老张放在了候选人的首位

78.北方某中学学校最近反映空气质量不佳，家长担心影响孩子的身心健康，提倡在学校安装空气净化器，但专家认为，学校可能不太适合安装空气净化器。

以下哪项如果为真，最能加强专家的观点？（　　）

A. 空气净化器的安装不能完全代替室内通风

B. 空气净化器的声音会影响孩子的学习

C. 空气净化器的功率大，会产生电量负荷

D. 空气净化器质量参差不齐，难以保证质量

79.某企业主要生产电话手表，其销售区域一直是华中地区，去年中旬开始销往西部偏远地区。但是年末清算时发现，西部偏远地区的销售额远高于其主营区域-华中地区。

以下哪个选项能够解释上述现象（　　）。

A. 该企业销售的电话手表价格实惠，性能较优

B. 华中地区市场已经接近饱和，而西部地区需求量大

C. 该企业为用户提供良好的售后服务，深受客户喜欢

D. 该企业是知名企业，消费者十分信赖该企业的产品

80.某出租车公司对旗下的出租车进行了一个调查，发现红色出租车的成单率最高，因此该出租车公司决定，将旗下所有的车都换成红色，以此来提高收益。

以下哪项如果为真，最能支持该公司的决定？（　　）

A. 开红色出租车的司机大都是技术娴熟、服务态度好的人

B. 白色出租车不耐脏，不如红色出租车好打理

C. 红色比较显目，红色出租车更容易引起乘客的注意

D. 红色出租车的成本高

第四部分　综合分析

（共 20 题，参考时限 35 分钟）

一、数学方法。在这部分试题中，每道题呈现一段表述数字关系的文字。要求你迅速、准确地计算出答案。

请开始答题：

81.某装修队装修，现有红、灰两种颜色的瓷砖，红瓷砖是灰瓷砖的 2 倍，计划装修房屋若干间。若每个房屋使用红瓷砖 80 平米，灰瓷砖 30 平米，那么红瓷砖缺 40 平米，灰瓷砖缺 40 平米。那么计划装修多少间房屋？（　　）

A. 5　　B. 6

C. 7　　D. 8

82.汽车从甲地到乙地，先行上坡，中间平地，后行下坡，共用 12 个小时，如果甲、乙两地相距 624 千米，车速在上坡时为每小时 40 千米，平地时车速为每小时 48 千米，下坡车每小时 60 千米，那么原地返回要（　　）小时。

A. 12　　B. 13

C. 14　　D. 16

83.单位组织员工假期旅游，有 11/20 的员工报名参加，报名东京游的人数与报名国内游的人数比为 3：1，两期旅游活动都报名的为只参加国内游人数的 50%，问未报名的人数与只报名东京游的人数的比例为（　　）。

A. 9/8　　B. 8/11

C. 11/9　　D. 1

84.某蛋糕店每天早晨可做出 100 块蛋糕，每块蛋糕成本为 10 元，规定每天先按获利 100%定价出售，下午 2 点到 5 点打九折，5 点之后折扣更低。已知某天下午一点之前卖出了 25%的蛋糕，剩余部分中 2/3 的蛋糕九折出售，最终还剩下 4 块蛋糕没卖出去，当天的全

官方电话：400-036-6665　官方客服：xzhuatu14
拉萨华图：拉萨新藏大对面300 米处华图教育

部利润为元，则晚上五点之后蛋糕打几折出售？

A. 六五折　　B. 七折

C. 七五折　　D. 八折

二、策略制定。所给出的资料有若干个问题要你回答。你应根据资料提供的信息进行分析、判断、计算并选择解决问题的最优途径。

请开始答题

（一）

你作为一个投资顾问，接待了一个想将存款用于基金投资的客户甲。甲准备把 120 万元投资基金 A 和 B，其中基金 A 要求的单位投资额为 50 元，年回报率为 10% ，基金 B 要求的单位投资额为 100 元，年回报率为 4% 。交流中，甲提出希望在每年的年回报金额至少达到 6 万元的基础上投资风险最小，并且至少在基金 B 中的投资额不少于 30 万元。

85.如果使总的投资回报金额最大，投资回报金额是（　　）万元。

A. 6　　B. 8.2

C. 10.2　　D. 12

86.根据测定单位基金 A 的风险指数为 8 ，单位基金 B 的风险指数为 3，风险指数越大表明投资风险越大。为了使总的投资风险最小，甲应该在基金 A 中投资（　　）万元。

A. 10　　B. 20

C. 30　　D. 40

87.在 86 题的条件下,甲要求在投资中风险指数不得低于 88000，这时每年的回报金额是多少？

A. 7.2　　B. 8.2

C. 9　　D. 10

（二）

某地刑侦大队对涉及 6 个嫌疑人的一桩疑案进行分析，已获得以下 5 条信息：

（1）甲、乙至少有 1 人作案；

（2）甲戊庚这 3 个人中至少有 2 人参与作案；

（3）甲丁不可能是同案犯；

（4）丙丁中有且仅有 1 人作案；

（5）如果丁没有参与作案，则戊也不可能参与作案

88.现在假定按照最少人数犯罪原则来确定当中有那些人参与了作案？（　　）

A. 2　　B. 3

C. 4　　D. 5

89.现刑侦大队又获得一个信息“乙丙或同时作案，或与本案无关”，但发现已知信息中（4）为假消息，则最多有几个人可能参与了作案？（　　）

A. 2　　B. 3

C. 4　　D. 5

（三）

90.大华公司从甲乙两个产地将服装运往 A、B、C 三种销售地。其中甲产地产品 200 件，运往三个销售地的的单价分别为 6 元、4 元、6 元，乙产地产品 300 件，阎王三个销售地的单价分别为 6 元、5 元、5 元。AB 两地可分别销售 150 件，C 地可销售 200 件。则最少需要运费（　　）元。

A. 2750

B. 2400

C. 2850

D. 2500

三、资料分析。所给出的综合性资料有若干个问题要你回答。你应根据资料提供的信息进行分析、比较、计算和判断处理。

请开始答题：

2015 年，广东实现社会消费品零售总额 31333. 44 亿元，增长 10. 1%，增幅比上年回落 1. 8 个百分点；扣除价格因素，实际增长 10. 5%，增幅比上年提高 0. 2 个百分点。分季度看，春夏秋冬各季度分别实现社会消费品零售总额 7326. 98 亿元、7594. 19 亿元、7928. 02 亿元和 8484. 25 亿元，分别增长 10. 0%、9. 6%、10. 5%和 10. 6%，增势总体平稳。分消费形态看，全年实现餐饮收入 3238. 83 亿元, 增长 10. 7%, 增速比上年提高 2. 4 个百分点;实现商品零售 28094. 62 亿元, 增长 10. 0%, 增速比上年回落 2. 3 个百分点。

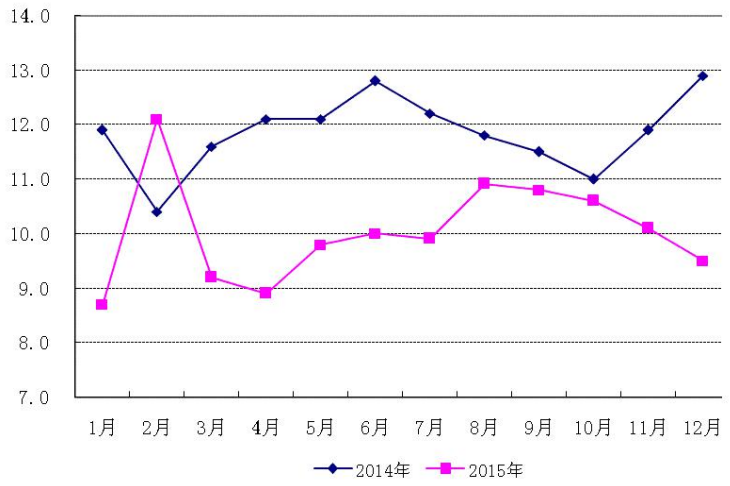

图 1 2015 年各月广东社会消费品零售总额增长情况(%)

91. 2015 年全年四季度中，实现社会消费品零售总额增长量最大的是哪个（　　）

A. 春季　　B. 夏季

C. 秋季　　D. 冬季

92. 2014 年，全年餐饮收入比商品零售额收入少了多少（　　）

A. 11806　　B. 25000

C. 24000　　D. 22615

官方电话：400-036-6665　官方客服：xzhuatu14
拉萨华图：拉萨新藏大对面300 米处华图教育

93. 2015 年全年，广东社会消费品零售总额增长率达到 10%的有几个（　　）

A. 4　　B. 6

C. 5　　D. 7

94. 2015 年 4 月广东社会消费品零售总额增长率比 2014 年 4 月低了约几个百分点（　　）

A. 3　　B. 4

C. 5　　D. 6

95. 根据以上材料，以下说法正确的是（　　）

A. 2015 年 3 月，广东社会消费品零售总额呈现负增长。

B. 2014 年全年，广东社会消费品零售总额增长率均超过 10%。

C. 2015 年全年广东社会消费品零售总额增长率均高于 2014 年。

D. 2014 年实现商品零售额增长率为 7.7%。

四、实验设计。所给出的实验设计均有若干个问题要你回答。你应根据提供的信息进行分析、比较、判断和处理。

（一）

实验材料：

海棉 1 块、烧杯 1 只、水

实验步骤：

（1）将海棉放在水平桌面上，然后将空烧杯杯底朝下放在海棉上，观察此时海棉形变程度。

（2）将烧杯倒扣在海棉上，观察此时海棉形变程度。

（3）比较前两次观察到的实验现象得出实验结论。

（4）将烧杯中装满水放在海棉上，观察海棉形变程度。并将这次观察到的现象与第一次观察的结果进行比较得出实验结论。

实验结果：

烧杯倒扣在海绵上造成海绵形变程度大于空烧杯正放在海绵上的程度，空烧杯正放在海绵上造成的形变小于烧杯装满水放在海绵上的程度。

96. 以下哪项最可能是上述实验的目的？

A. 比较不同状态下物体所受的压力

B. 探究影响压力作用效果的因素

C. 探究物体的形变程度与受力面积的关系

D. 探究物体的形变程度与压力的关系

97. 为了达到实验目的，不可将实验中的烧杯换成下列哪种物品？

A. 小桌　　B. 笔记本电脑

C. 牛津大词典　　D. 充满气的篮球

官方电话：400-036-6665　官方客服：xzhuatu14
拉萨华图：拉萨新藏大对面300 米处华图教育

（二）

某实验小组为了探究“影响浮力大小的因素”时，做了如图所示 a、b、c、d、e 五个实验，将物块 A 置于不同的环境下，用弹簧测力计进行测量并记录。

（a）物块 A 置于空气中，4N；

（b）物块 A 部分浸入水中，3.6N；

（c）物块 A 上表面刚好浸入水中，3N；

（d）物块 A 完全浸入水中，3N；

（e）物块 A 完全浸入盐水中，2.8N。

请你根据该小组的实验探究回答下列问题：

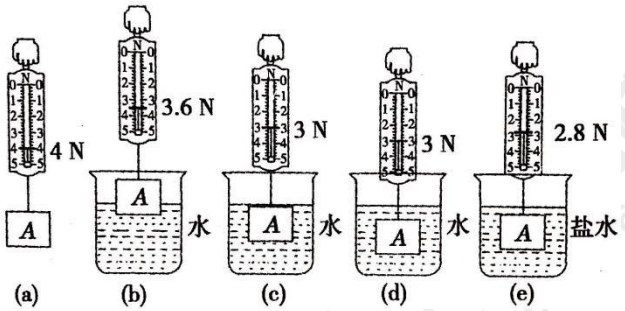

98. 下列哪组对照实验不能说明浸在液体中的物体会受到液体对它的浮力作用？

A. （a）和（b）　　B. （a）和（c）

C. （a）和（d）　　D. （d）和（e）

99. 通过该探究，不能得到的结论是：

A. 物体受到的浮力大小与液体密度有关

B. 物体受到的浮力大小与物体浸没的深度无关

C. 物体受到的浮力大小与物体的密度无关

D. 物体受到的浮力大小与物体浸在液体中的体积有关

100. 现实验小组对物块 B 另外做了如下两个实验：

（f）物块 B 完全浸入水中，3N；

（g）物块 B 置于空气中，4N。

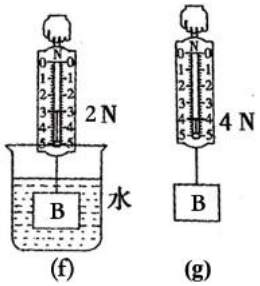

结合前述实验，下列结论无法得出的是：

A. 物块 A 与物块 B 所受的重力相等

B. 在完全浸没在水中的情况下，物块 A 所受的浮力小于物块 B

C. 物块 A 的体积小于物块 B

D. 物块 A 的密度小于物块 B

华图教育 HUATU.COM | 拉萨分校 400-036-6665 SINCE 2001