事业单位模考试卷

一、公共基础知识

1.2019 年 6 月 2 日，中国国务委员兼国防部长魏凤和表示，（　　）事关中国主权和领土完整。

A.香港问题

B.台湾问题

C.澳门问题

D.钓鱼岛问题

2.关于中美贸易摩擦的说法，下列说法错误的是（　　）。

A.2019 年 6 月 2 日国务院发布《关于中美经贸摩擦的事实与中方立场》白皮书

B.合作是双方唯一正确的选择

C.对于贸易战，中国不愿打，不怕打

D.中美经贸关系是两国关系的“压舱石”和“推进器”

3.“橘生淮南则为橘，生于淮北则为枳。”即橘这种水果适宜生长在淮南，如果移到淮北就变成又小又苦的枳了。这种情况说明（　）。

A. 事物的存在和发展是与一定的条件紧密相关的，因此，办事情、想问题必须顾及这些条件，从实际出发

B. 外在的环境和条件对事物的发展起决定作用

C. 外因是事物发展变化的根本原因

D. 条件决定一切，人们在环境和条件面前是无能为力的

4.“先天下之忧而忧，后天下之乐而乐”，这句名言所包含的哲理是( )。

A.个人价值融于社会价值中　　B.人的自由是相对的

C.人的发展具有历史阶段性　　D.社会发展要以人为本

5.经过长达一天的时间，“玉兔”号月球车才算完全清醒，开始重新进行月面行走。在睡了 14 天之久的“长觉”后恢复正常工作状态，沉睡状态的“玉兔”号和天空中的星体一样，也在不停地运动。没有运动，“玉兔”号也就不存在了。这反映的哲理是(　　)。

A.运动是物质的固有属性　　B.运动是物质的唯一特性

C.物质是运动的主体　　D.运动是宇宙中一切事物的变化和过程

6.全面推开营改增，加快财税制度改革，用短期财政收入的“减”换取持续发展势能的“增”，以增值税享享比例的调整来调动中央和地方两个积极性。这一改革思路蕴含的哲理是：

A.想问题、办事情要充分发挥主观能动性

B.事情发展是前进性与曲折性的统一

C.矛盾双方在一定条件下互相转化

D.事物间的联系是无条件普遍存在的

7.马克思主义哲学同具体科学的关系是( )。

A.普遍和特殊的关系　　B.整体和局部的关系

C.代替和被代替的关系　　D.有限和无限的关系

8.甲乙都是生产机器人大户，生产同样的一款机器人，甲需要耗费 5 天时间，乙需要耗费 8 天时间。那么，对比甲乙两家生产的机器人的价值量（　）

A.甲大　　B.乙大　　C.一样大　　D.无法比较

9.现在的手机移动支付客户端越来越多，支付宝、微信钱包、京东闪付、苹果闪付等陆续推出，手机移动支付只需在手机 APP 中关联一张银行卡，并完成身份认证，即可将装有 APP 的智能手机变成一个全能钱包，无需任何现实的刷卡步骤即可完成支付。与传统的支付相比，手机移动支付（　　）

①创新了支付方式，方便消费者进行购物消费

②方便了用户操作，提高商家的利润

③使现金退出流通领域，实现直接交换

④能一定程度上减少现金使用，简化收款手续

A. ①③　　B. ①④　　C. ②③　　D. ②④

10.2018 年 10 月 15 日，央行正式下调大型商业银行、股份制商业银行、城市商业银行、非县域农村商业银行、外资银行人民币存款准备金率 1 个百分点。这是央行今年以来的第四次降准，此前三次分别在今年的 1 月、4 月、7 月，算上这次的降准，央行今年已经累计下调法定存款准备金率 2.5 个百分点。央行降准带来的影响不包括　（　　）

A. 投资热潮高涨

B. 失业率上升

C. 出国旅游的人数增加

D. 物价上涨

11.经济学通常将货币定义为公众普遍接受的对商品劳务和债务的一种金融支付手段。货币有狭义货币和广义货币之分。狭义的货币指的是（　　）

A.流通中现金与商业银行活期存款

B. 现金和现金等价物

C. 存款和现金

D. 市场上流通的货币

12.十八届三中全会指出，市场在资源配置中起决定性作用，市场就好像是一只看不见的手，自发调节着市场上寻求自利的经济个体的行为，并以此来推动整个社会财富的增加。要发挥市场的自发调节作用就要重视（　　）

①税收政策的调整　　②经济手段的运用

③供求关系的变化　　④价格信号的变化

A. ①②　　B. ③④　　C. ①③　　D. ②④

13.下列属于锥形组织特点的是（　　）。

A.管理幅度大　　B.主管可以对下属详尽指导

C.信息传递快　　D.信息传递不容易失真

14.企业文化分为隐性文化和显性文化，下列不属于隐性文化的是（　　）。

A.组织哲学　　B.规章制度　　C.价值观念　　D.道德规范

15.泰勒的研究成就不包括（　　）。

A.动作研究　　B.工时研究　　C.计件工资　　D.科学心理学

16.下列不属于顾客部门化的是（　　）

A.公司设有生产部、营销部、财务部、人事部

B.公司设有全球客户、大客户、中小客户三大销售部门

C.医院设有放射科、心电图室、脑电图室、超声波室

D.银行设有个人业务部和公司业务部

17.为加快文件的传递，可采用(　)。

A.逐级行文　　B.多级行文　　C.越级行文　　D.直接行文

18.甲欠乙 5000 元，甲欲让丙代其还款，以下说法错误的是（　　）

A、甲想让丙代其还款，但乙不同意，应当由甲自己还款

B、甲无力偿还，在征得乙同意后，丙同意代甲还款但后来又反悔了，乙依然可以要求甲来还款

C、甲无力偿还，乙得知丙还欠甲劳务费 5000 元，乙可以要求丙偿还甲的 5000 元钱

D、甲与乙之间约定借款无息，两年以后归还。两年已满，甲未如约还款，乙在借款发生 30 个月后，有权要求甲归还本金和 6 个月的利息

19.对于我国案件审理程序的表述，下列哪一种说法正确(　　)

A.两审终审制，但最高人民法院一审判决即为终审判决

B.单纯的两审终审制，两审后当事人不得上诉

C.一审终审制，但当事人可以向上级人民法院提出复核

D.一审终审制，但允许当事人上诉

20.张某在某商店买东西,因对所买东西质量不满而与商店老板发生争吵,在争吵中张某用手中的啤酒瓶将商店老板砸伤。商店店员拨打 110 报警,辖区派出所接到报案后,将张某带回派出所,以违反治安管理处罚法为由对其处以 1000 元的罚款,并责令其赔偿商店老板医药费 700 元。下列说法正确的是（　　）

A. 派出所的处罚行为是违法的,超越了派出所的职权范围

B. 派出所的处罚是根据《治安管理处罚法》进行的,所以是合法的

C. 派出所的处罚是否合法取决于商店老板的伤势

D. 张某如果不服派出所的行政处罚,应以派出所所属的公安局为被告提起行政诉讼

21.下列选项，能够成立民事法律关系的是（　　）

A. 甲与乙确定恋爱关系

B. 甲对乙说：如果你考上公务员，我就嫁给你

C. 交警对张三违章停车进行处罚

D. 甲不知乙不胜酒力而极力劝解，致乙酒精中毒住院治疗

22.彩礼一般是指依据当地习俗，一方及其家庭给付另一方及其家庭的与缔结婚姻密切相关的大额财物，包括现金、首饰等贵重物品。下列不需要返还的是？

A.双方未办理结婚登记手续的，一方给付另一方的彩礼

B.订立婚约前后过程中所交付的小额礼金、礼品

C.双方办理结婚登记手续但确未共同生活后离婚的，一方给付另一方的彩礼

D.婚前给付并导致给付人生活困难后离婚的，一方给付另一方的彩礼

23.胡甲与胡乙、胡丙系亲兄弟，其父胡丁。2008 年 7 月 25 日，胡丁请其朋友李某某为其代书一份遗嘱，将其所有的房屋、山田、竹林等财产在胡甲、胡乙、胡丙间作了分配。父亲死后，三个儿子多次因此发生纠纷，经解决未果。该份遗嘱的效力如何？

A.有效　　B.无效　　C.失效　　D.未生效

24. 1986 年，梁某与郑某结婚。2011 年，梁某帮助茶叶公司向钟某借款 31 万元并出具收条，嗣后茶叶公司法定代表人吴某向钟某出具借条并加盖公章。2012 年，法院判决茶叶公司、吴某连带偿还钟某 31 万元及利息，其后，梁某偿还钟某 8 万元。2013 年，钟某起诉梁某，经调解，梁某确认欠钟某 23 万元。2014 年，梁某与郑某登记离婚。下列说法错误的是？

A.钟某可诉请郑某偿还

B.钟某可诉请梁某偿还

C.钟某可诉请茶叶公司偿还

D.借款并非用于“家庭共同生活或者家庭生产经营”的，应认定为夫妻借款一方个人债务

25.2018 年 2 月 7 日，孙女士到白先生的养殖场买羊，被养殖场内的狗咬伤腿部。孙女士经治疗后出院，要求白先生赔偿医疗费、护理费、交通费等共计 12640.00 元；白先生称自己除养羊以外，还承包了该养殖场的一部分场地养牛，狗是在养牛场护院的。下列说法错误的是？

A.孙女士未经其同意擅自靠近养牛的场地，其自身具有过错，白先生不需进行赔偿

B.若孙女士故意去挑逗狗，而导致该结果，白先生可适当减轻其责任

C.若孙女士对被咬的结果存在重大过失，白先生可适当减轻其责任

D.白先生应承担无过错责任

26.1995 年，李某子女各自组建家庭并取得土地承包经营权。2005 年，李某夫妇相继去世，李某生前耕种土地由李某女耕种，李某子诉请分割继承。下列说法错误的是？

A.我国农村土地承包经营权分为家庭承包和以其他方式承包两种类型

B.李某女有权继续耕种

C.李某子无权诉请分割继承

D.该土地承包经营权应由该土地发包人予以收回

27.2015 年，覃某孙子将手中芭蕉分享给一起玩耍、同样不满 6 岁的曾某，后曾某因一时咬食芭蕉过多、吞咽过急死亡，经鉴定系“异物吸入窒息死亡”。贾某需要承担侵权责任吗？

A.承担与其过错相适应的责任

B.承担公平责任

C.承担无过错侵权责任

D.不需承担责任

28.2006 年，吴某与未达到法定结婚年龄的王某办理结婚仪式并开始同居。2007 年 9 月 7 日，双方正式办理结婚登记。此前的 2007 年 8 月 20 日，吴某父母以吴某名义购房并交定金 5000 元。同年 9 月 2 日，吴某父母交首付款 5.5 万元。2008 年，该房过户至吴某名下，吴某父母一直为该房屋偿还房贷。2011 年，王某与吴某诉讼离婚。现就房产产生纠纷，该套房产属于谁？

A.吴某　　B.王某

C.吴某父母　　D.吴某与王某共同所有

29.2009 年，张某购买雷某房，约定雷某办理房产证 1 个月后配合办理过户手续。张某支付全款后装修并一直居住。2012 年，张某诉请确认合同有效并办理过户手续。雷某以该房现登记在其与配偶李某名下，李某不同意卖房为由抗辩。下列说法正确的是？

A.因买卖合同有效，故该房屋是张某的

B.雷某属于无权处分，故合同无效

C.该套房屋属于雷某及其配偶李某所有

D.张某有权请求雷某过户登记，并主张其承担违约责任

30.网络技术是由（　　）。

A. 传感技术与计算机技术融合形成

B. 通信技术构成

C. 计算机技术构成

D. 通信技术与计算机技术融合形成

二、言语理解与表达

31.中国拥有众多的人口，也拥有世界上最_____的自然景观，高原、山林、湖泊、海岸线……这种地理和气候的跨度，有助于物种的形成和保存，任何一个国家都没有这样多潜在的食物原材料。人们采集、捡拾、挖掘、捕捞，为的是得到这份自然的_____。

填入划横线处最恰当的一项是：

A.丰富多元　馈赠　　B.光怪陆离　财富

C.变幻无穷　礼物　　D.山包海汇　惠赠

32.一些“国学院”出版的图书_____，错漏百出，甚至把精华当糟粕。一些打着弘扬国学旗号的“国学院”把“三从四德”这样的____四处传播，假借国学之名招摇撞骗，败坏传统文化的名声。

A.良莠不齐 余毒

B.鱼目混珠 风气

C.鱼目混珠 影响

D.良莠不齐 信仰

33.英雄是一个时代高高_____的精神丰碑，蕴含着激励人们前行的伟力。英雄的名字不只是一个符号，当那些带着热血与温度的符号内化为城市的精神时，它就有了生命，有了灵魂，便融入了城市的血脉当中，扎根在百姓心田，为实现中国梦强军梦注入_____的力量。

依次填入划线处最恰当的一项是：

A.矗立　撼天动地　　B.伫立　擎天撼地

C.肃立　源源不断　　D.耸立　生生不息

34.依法享有假期是劳动者的基本权益，然而在现实生活中，休假成为纸上谈兵的现象_____。许多员工工作多年从未休过假，有的法定假期甚至不为员工所知。随着生活水平的提高，社会对福利假期的关注度越来越高，休假沦为“画饼”的现象显然与时代进步_____。

填入划横线处最恰当的一项是：

A.比比皆是　相辅相成　　B.蔚为大观　不谋而合

C.屡见不鲜　格格不入　　D.叹为观止　背道而驰

35.下列各句没有语病的一项是：

A. 文件对经济领域中的一些问题，从理论上和政策上作了深刻的说明和详细的规定。

B. 如果人们连续看上四五个小时的电视节目，就会感到十分疲劳。

C. 雪碧、可乐、矿泉水等饮料，是家家户户深受欢迎的夏令饮品。

D. 考试开始后，大约过了半小时，就有人陆续交卷了。

36.下列各句没有语病的一项是：

A. 我们要认识和掌握事物的客观规律，尽量避免不犯错误或少犯错误。

B. 不难看出，这起明显的错案迟迟得不到公正判决，其根本原因是党风不正在做怪。

C. 在江主席访美期间，美方曾以不安全为由，试图劝阻江主席不去顾毓秀老师家，但江主席坚持中国“尊师重教”的传统，决意登门拜访。

D. 故宫博物院展出了两千多年前新出土的文物

37.下列成语使用没有错误的一项是：

A.面试上，他借的一身衣服很不合身，真是捉襟见肘。

B.亚丁稻城的风景可谓秀色可餐 ，它是名副其实的人间仙境。

C.这次的海峡商品交流会，可谓浩如烟海，东西应有尽有，吸引了众多市民前来。

D.老沈虽然退休了，但依旧精力充沛，在做事上显示出了年富力强的老年人形象。

38.下列成语使用没有错误的一项是：

A.针对班上同学成绩良莠不齐的现状，作为老师应该学会不同学生有针对性的进行辅导。

B.作为领导人，要有高屋建瓴的思想觉悟，才能永葆党的青春活力。

C.实现人与计算机对话已是唾手可得，能够听懂人类语言的计算机即将进入我们千家万户。

D.作为一名公职人员，我们虽然缺乏经验，但可以在工作中与老同事学习，最初可能是邯郸学步，但终究会走出自己的路来。

39._____。时下，个人信息安全正在失去传统物理性的天然屏障，变得越来越让人不放心，它所带来的不只是表层上隐私权利的困扰，也是对社会生活各方面关系中最基本最起码的信任的冲击。每个人都可能是受害者。从这个角度来说，互联网生活的背景下，保护个人信息已不仅是在保护个人权利，而且是在调节和维系社会基本秩序。

填入划横线处最恰当的一项是：

A.人们受到个人隐私泄露的困扰

B.网络在深刻影响着社会秩序

C.社会秩序正在发生改变

D.个人隐私越来越受到冲击

40.文化承载着民族发展的血脉，是构筑民族精神的基石，也是衡量一个国家软实力和综合国力的重要指标。随着中国社会经济强劲发展，经济总量位居世界第二，大量商品和品牌行销全球，文化“走出去”的动能也愈发强大。总结成功的国际文化符号，它们几乎都拥有深厚的文化价值，或源自历史与传统，或反映时代与社会。中国文化源远流长、博大精深，拥有丰富的文化资源，本身就是一座亟待开采的文化宝库，我们应深入挖掘，将中国元素与互联网相融合，打造文化精品、创新传播方式，以多元性和多样性满足全球消费者的需求。

这段文字主要强调的是：

A.文化走出去须注重“互联网+中国元素”

B.我国文化在世界的强势地位

C.文化走出去的重要性

D.中国文化凝聚着深厚的文化价值

41.美国的相关研究人员对参加美国全国健康和营养调查的6550名参与者开展了为期18年的跟踪研究。结果显示，从来不吃早餐的人比每天都吃早餐的人心血管死亡风险增加 87%，然而，这项研究其实具有局限性，大家不用过于担心。其实，健康早餐的基本原则是：保证食物种类多样、营养搭配合理。对此，建议从两方面做起：一是早餐要吃饱。一般来说，早餐提供的能

量占全天总能量的 25%至 30%，所以，早餐要尽量吃饱。二是早餐要吃好。这里的好是指早餐的营养价值要好。要为人体提供丰富的营养，早餐最好含有蔬菜、水果、全谷物和蛋奶等食物，这样才能保证获得均衡营养。

下列说法与原文不相符的是：

A.美国的相关研究显示不吃早餐相较吃早餐的人存在更高的心血管死亡风险

B.保证食物种类多样和营养搭配合理是健康早餐的基本原则

C.早餐提供的能量占全天总能量的一半以上

D.为了保证获得均衡营养，早餐最好含有蔬菜、水果、全谷物和蛋奶等食物

42.“一战”后的通货膨胀，使朗格公司面临极其严峻的生存问题。只有库尔茨博士（Ernst Kurtz）的钟表公司认识到优惠的价格、工业化和腕表流行所能带来的机会。瑞士的竞争者早在 10 年前就推动了机器生产，一夜间，瑞士人成了赢家。1924 年，当德国政府取消了进口瑞士手表的禁令后，瑞士的生产者以机器生产的怀表、腕表迅速冲击了德国市场。就这样，格拉苏蒂镇在这样的竞争下迷失了，似乎传统手表制造业迎来了一次末日。奥托在公司 80 周年庆典上发表演讲的时候说过，为了与战后的瑞士公司竞争，公司必须以一种现代化且经济的方式重新组织。朗格公司不得不引进机器。然而，最终没人预测到，通胀和经济倒退席卷了整个德国。奥托说，真正的危机尚未显现，当它来临的时候将势不可挡，我的父亲也同意这种结论，虽然朗格最终幸免于难。

根据这段文字，下列说法与文段不相符的一项是：

A.朗格公司引进机器与企业竞争有关

B.优惠的价格、工业化和腕表流行可能给朗格公司的生存危机带来机会

C.德国政府取消进口瑞士手表的禁令后，瑞士手表得以进军德国市场

D.朗格最终幸免于难是因为预见真正的危机可能来势汹汹

43. 从过去历史来看，刺激房地产对于中国经济的拉动效应其实已经明显减弱。过去 10 年，中国有两次大规模刺激房地产的举动，一次是 2008 年金融危机爆发后，国内房价大幅下跌，当时有关部门联合救市，房价很快大幅上涨。其时房地产和“4 万亿”政策相配合，对于拉动经济的效果非常明显。第二次救市是 2014 年，当时楼市成交量已经持续低迷了两年时间，房价也出现小幅下跌，有关部门再度救市，结果就是 2015 年和 2016 年房价再度大幅上涨。但是从那一

次来看，房地产行业虽然得到了拯救，但是对中国经济的拉动效果并不明显，2015 年中国 GDP 首次跌破了 7%，2016 年增速继续放缓至 6.7%。如果再度启动对房地产行业的第三次救市，结果很可能就是房价再度飙涨，而经济增长并无起色，甚至因为其他行业被挤压导致经济加速恶化。

根据这段文字，下列说法与文段相符的一项是：

A.改革开放以来中国有两次大规模刺激房地产的举动

B.启动第三次房地产行业救市未必是一件好事

C.2015 年中国增速继续放缓至 6%左右

D.房价大幅上涨有助于拉动经济增长

44.随着物质条件的改善，民众对精致生活的追求渐趋热切。然而，当下一些年轻人超越自身实际，过度追逐所谓“品质生活”掩盖下的预消费、高消费，无孔不入的“精致”透支钱包，掏空身心，侵蚀灵魂，甚至经常看到他们朋友圈里岁月静好，现实却乱成一团糟。为什么越来越多年轻人披上了“假精致”的华丽外套？“精致的伪装主义者”看似荒诞，暴露出的则是人性的虚荣和社会风气的浮泛。此外，在当下许多年轻人的意识中，不合群意味着不好相处，等同于异类，一些人因而陷入一种“假装合群”的症状里，并为“伪合群”重金“买单”。

根据以上材料，不属于年轻人追求“假精致”生活的原因是：

A. 当前社会风气的浮泛

B. 为了追求所谓的合群

C. 年轻人自身的虚荣心作祟

D. 为了让生活更有仪式感

45.每一时期的文学都有其发展轨迹，网络文学的发展也深深地打上了时代烙印。早期的网络文学作者受限于年龄和阅历，对现实生活的体验不深入，一味地顺应网民需求，创作出不少玄幻、猎奇等架空历史和现实的小说，脱离群众与现实生活，虽然读者读起来饶有兴致，但文学性十分欠缺。可喜的是，近年来网络文学作品在题材和故事主角方面不断丰富。比如，扶贫、支教等“冷门”题材都有涉及，正因为网络文学的创作者跟上了时代发展步伐，网络文学才有了巨大的发展空间。网络文学只有经得起时代的考验，让人们在网络文学作品中感受到真善美，给广大读者提供源源不断的精神食粮，才能赢得更广泛的读者。

根据上述文字，网络文学能够得到巨大发展的根本原因是：

A. 顺应网民的需求，创作出不少架空历史和现实的小说

B. 网络文学的创作者跟上了时代发展的步伐

C. 网络文学作品在题材和故事主角方面不断丰富

D. 给广告读者提供源源不断的精神食粮

46.预付消费受热捧，背后是“双赢”的商业逻辑。对消费者来说，预付消费的价格往往有优惠，也可省去每次结算的麻烦，体验更好。对商家来说，一次性预收顾客的资金，意味着锁定了未来一段时间的客源。但现实中，预付消费“卡壳”现象时常发生。

这段文字接下来最可能讲的是：

A.“先预付、后消费”的商业模式

B.消费者在预付消费过程中遇到的问题

C.商家如何推行预付消费

D.预付消费的好处

47.当今世界，正处于百年未有之大变局，贸易保护主义重新抬头。然而，尽管风云变幻、洋流涌动，但中国经济巨轮劈波斩浪、行稳致远，成为引领世界经济走出阴霾、推动经济全球化继续前行的希望之光。正所谓“任凭风浪起，稳坐钓鱼船”，中国经济之所以能表现出超预期的稳健，主要得益于超稳固的“压舱石”。新技术、新产业孕育新动能，3D 打印设备、石墨烯、新能源汽车等技术含量和附加值较高的工业新产品产量快速增长，见证中国经济在高质量发展的新航程中动力十足。

根据这段文字，“压舱石”指的是：

A.党中央的坚强领导、科学决策

B.农业稳中有进、量质并举

C.新技术、新产业

D.消费块头更大、外贸结构更优

48.何为“种草”？就是“把一样事物推荐给另一个人，让其他人喜欢这样事物的过程”；而“拔草”，就是“终于买到了”。草，就像一个比喻，说的是从萌动、疯长到平息的购物欲。小到时尚潮牌、美妆饰品，大到家居百货、私人订制，在消费者眼里，万物皆可“种”。从论坛社

区里的内行话，到网络平台的常见词，再到日常生活的流行语，“种草”与“拔草”已经成为一种火热的消费现象，渗透进生活的各个场景。

根据这段文字，文段中的“种草”指的是：

A.种植草坪

B.买到了某样物品

C.疯长到平息的购物欲

D.推荐事物让他人喜欢的过程

49.近年来，学术“抄袭门”屡见报端。3 月 21 日，又有媒体曝光某高校历史系一名硕士研究生的学位论文涉嫌抄袭，且从题目、摘要到参考文献与被抄袭论文几乎完全一致。大跌眼镜的同时，我们更应反思：一篇“假论文”是如何蒙混过关的？实际上，高校对学术论文的撰写有着严格的规范。一篇学位论文的创作，至少需要经过开题、初稿、修改、查重、答辩等多道程序。抄袭者居然能堂而皇之地通过学校设立的各道关卡，拿到学位，便是一个学校的丑闻。执行层面存在严重漏洞，又缺乏第三方的审查、监督机制，抄袭者自然有机可乘。论文抄袭的根本症结在于学术评价机制的僵化，不可否认，在拿学位、评职称都需要发表论文的硬性制度之下，无论是作者还是学术机构，都难以摆脱对论文发表的数量的过度追求。

根据上述文字，论文抄袭的根本原因是：

A. 缺乏第三方监管以及相应的监督机制

B. 对论文作假的惩罚存在较大的弹性空间

C. 国内对于学术评价机制的僵化

D. 高校在论文查重、答辩等环节存在严重漏洞

50.可以说，瓷器是人类贸易史上第一件真正意义上的“全球性商品”。作为瓷器之路的起点，中国的制瓷技术有悠久的历史，其独家奥秘延续千年，世人莫不趋之若鹜。而且，在东西方贸易史中，茶叶和丝绸虽然更大宗，但它们完成的都是“输出—接受”的单向旅程，若论跨文化的交流、渗透、影响、融合，则非瓷器莫属，也难怪要以“china”来命名这种器物了。另一方面，放在跨文化的视角去观察，更能清晰认识中国瓷器的内在价值，看清它的区域性、地方性和民族性。事实上也如大英博物馆馆长麦克格瑞格所说，“瓷器的历史是全球对话的历史，其

对制造技术和日常生活、人文风尚等方面的重大影响是双向的”。从这个意义上，瓷器之路完成了东西方交融的一个“文化大循环”。

根据这段文字，“文化大循环”指的是：

A.瓷器在东西方文化的交流、渗透、影响、融合中发挥了重要的双向作用

B.瓷器的历史是全球对话的历史

C.瓷器对制造技术、日常生活、人文风尚等方面的重大影响是双向的

D.瓷器是人类贸易史上第一件真正意义上的“全球性商品”

51.“风物”是个妙不可言的词汇，水土和时节的细微差异，对植物的生长都会产生不可预测的影响。说起布朗山的茶树，很难不提到普洱茶，老班章、老曼娥这些耳熟能详的茶叶，大都出自这里。由于布朗山地处高海拔边境，大部分的茶树都是云南大叶种茶。这也使得制作完成的茶叶条索较粗大，芽叶肥壮，香气沉稳内敛，且带着生机勃勃般的回甘与气韵。想要从茶中感受到当地最原始的滋味，没有经过人工发酵渥堆的普洱生茶最为合适，它最大限度地保留了茶叶中的活性有机物质，也将生长时的土壤、雨水和气候凝缩成味觉密码，等待人们的探索和品味。

下列说法与原文不相符的是：

A.普洱茶，老班章、老曼娥这些耳熟能详的茶叶，大都出自布朗山

B.由于布朗山地处高海拔边境，大部分的茶树都是江南大叶种茶

C.水土和时节差异对植物的生长都会产生影响

D.没有经过人工发酵渥堆的普洱生茶最大限度地保留了茶叶中的活性有机物质

52.做白灼虾时，锅里的水一定要足，需要完全没过虾才可以，稍微放一点油、盐和姜片。鲜虾放入开水中煮，因为蛋白质受热变性而收缩的缘故，本来伸展的虾开始变弯。当活虾弯到 90°直角时，就已经九成熟可以吃了，这时候的虾肉多汁而鲜嫩；如果是冰鲜虾或冻虾，则需要煮到虾身弯曲小于 90°，此时口感好。虾肉是高蛋白食物，不要一次吃太多，以免加重肠胃负担，导致消化不良。至于虾和维生素 C 含量高的蔬菜水果不能一起吃的说法，纯属谣言。

下列说法与原文不相符的是：

A.做白灼虾时锅里的水需要完全没过虾

B.当活虾弯到 90°直角时，就已经九成熟可以吃了

C.冰鲜虾或冻虾需要煮到虾身弯曲大于 90° 时口感好

D.虾肉是高蛋白食物，不要一次吃太多

53.自古以来，诗词的创作与传播都与音乐密不可分。《诗经》《乐府》中的大部分篇章都来自于民间歌谣。经过文人的改造，民间歌谣的艺术性得以提升，从而获得更广泛传播并经典化的可能。可以说，中华民族的诗与乐，从一开始就是相互配合、相互成就的。

这段文字主要强调的是：

A.《诗经》的来源

B.中华诗词与音乐的密切关系

C.音乐对诗歌创造的作用

D.诗歌的传播需注重音乐性

54.据英国《自然·神经科学》杂志在线发表的一项研究，美国科学家测定了人脑与猴脑在对声音反应方面的差别，结果发现：人类的听觉脑区更偏爱谐波声音，而恒河猴并没有这种特征。

这段文字主要强调的是：

A.人类听觉更能感知和谐声音

B.动物听觉功能的缺失

C.人类听觉对语音和音乐的反应

D.人类与动物听觉的区别

55. 俄罗斯开发亚洲天然气市场属于战略决策，目的是规避在国际能源市场中的负面影响，带动国内社会经济发展，从而确保俄罗斯在国际政治经济体系中的强国地位。基于上述目标，俄罗斯开发亚洲天然气市场的直接动机由以下三个相互联系的因素组成。第一，发展远东地区的需要；第二，降低市场风险的需要；第三，加强中俄关系的需要。由此可见，俄罗斯开发亚洲天然气市场是势在必行。

这段文字主要说明了：

A.俄罗斯开发亚洲天然市场的原因

B.俄罗斯开发亚洲天然气势在必行

C.加强中俄关系对俄罗斯很重要

D.天然气开发对国家而言势在必行

三、判断推理

56. 从所给的四个选项中，选择最合适的一个填入问号处，使之呈现一定的规律性：





A　　B　　C　　D

57. 从所给的四个选项中，选择最合适的一个填入问号处，使之呈现一定的规律性：



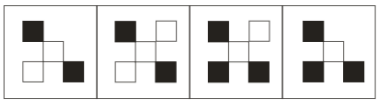

A　　B　　C　　D

58. 从所给的四个选项中，选择最合适的一个填入问号处，使之呈现一定的规律性：

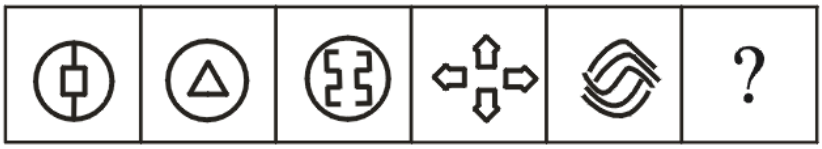

A　　B　　C　　D

59. 从所给的四个选项中，选择最合适的一个填入问号处，使之呈现一定的规律性：

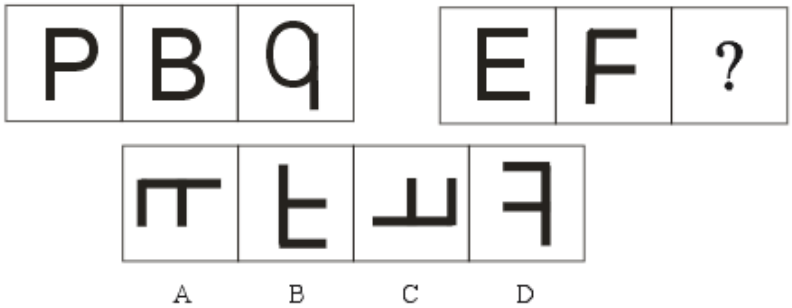

60.从所给的四个选项中，选择最合适的一个填入问号处，使之呈现一定的规律性：

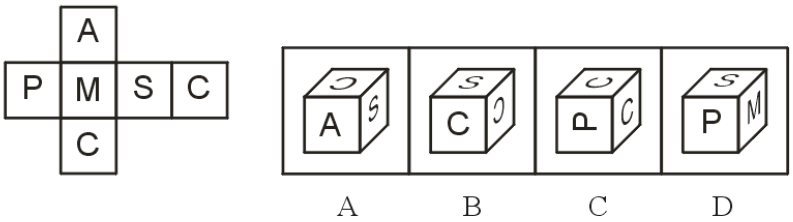

二.事件排序。每道题给出五个事件，每个事件是以简短语句表述的，接着给出四种假定发生顺序的序列，请选择其中最合乎逻辑的一项。

61.①教育部出台《中小学减负措施》

②培训乱象得以解决

③送孩子去培训机构

④催生培训机构乱象

⑤家长望子成龙

A.①—④—⑤—③—②　　B.⑤—①—③—④—②

C.②—③—⑤—①—②　　D.⑤—③—④—①—②

62.①餐饮行业卫生事故频出

②要求餐饮单位后厨增设视频监控

③消费者对于餐饮存在诸多不放心

④食药监局出台“明厨亮灶”意见

⑤消费者通过监控视频监督后厨

A.④—①—③—⑤—②　　B.①—③—④—②—⑤

C.②—①—③—⑤—④　　D.①—③—④—⑤—②

63.①责任判定争执不下

②车主使用物理知识测算自己无责

③十字路口辆车刮蹭

④最终判断车主无责

⑤结合路面视频确定

A.③—①—②—⑤—④　　B.③—①—②—④—⑤

C.①—④—⑤—③—②　　D.③—②—①—④—⑤

64.①呼叫酒店技术人员求助

②考生被困酒店电梯

③齐心协力就出被困考生

④为方便高考期间住酒店

⑤开设绿色通道送考生到考场

A.②—①—③—⑤—④　　B.③—⑤—④—②—①

C.④—②—①—③—⑤　　D.④—②—①—⑤—③

65.①生活垃圾污染严重

②垃圾分类工作提速

③国家推行垃圾分类

④将垃圾分类纳入法制框架

⑤垃圾分类推进迟缓见效不大

A.⑤—④—②—①—③　　B.③—①—②—④—⑤

C.①—③—⑤—②—④　　D.①—③—⑤—④—②

三、定义判断。每道题先给出定义，然后列出四种情况，要求你严格依据定义，从中选出一个最符合或最不符合该定义的答案。注意：假设这个定义是正确的，不容置疑的。

请开始答题：

66.鸡尾酒会效应：在鸡尾酒会上，很多人在同时进行着各种交谈，但一个人同一时刻只能注意和参与其中的一个交谈，这是注意分配的问题。由于心理资源有限，同一时刻只能将信息加以

过滤和筛选，以此时最重要或最有兴趣的信息为注意对象。作为一个选择过滤器，注意就像收音机上的旋钮，一方面挡住大多数不需要的信息，一方面延留所需要的信息，使之进入意识。

根据上述定义，下列不属于鸡尾酒会效应的是（　）。

A.演唱会上，大家跟随着歌手一起清唱，全然忘记了天气寒冷

B.班级毕业十周年的晚会上，班主任侃侃而谈

C.很少有人注意到《少年方世玉》中有扮演丫头的谢娜

D.列车上两年轻人吵起架，全车的人都把目光投向了他们

67.民法上的埋藏物：指包藏于他物之中，不容易从外部发现的物。埋藏物是有主物，只是所有人不明，而非无主物。具有历史、艺术和科学价值的文物不属于埋藏物。

根据上述定义，下列属于埋藏物的是（　）。

A.有烟瘾的老杨偷偷把他老婆藏起来的烟偷了出来

B.小李逛街时在商场捡到一个钱包

C.拾荒老人在垃圾堆中捡到一辆废旧自行车

D.小肖在田径场的草丛中发现了全新的足球

68.下班沉默症指的是生活中，常有一些人在上班时侃侃而谈，回到家却疲惫懒言;聚会应酬时笑容满面，面对亲友时却麻木冷淡。这些上下班时间判若两人的人群，被称为"下班沉默症"患者，对正常的情感交流避之不及，甚至拒绝亲友的抚慰，进入了交际怪圈。

根据上述定义，下列属于下班沉默症的是（　）。

A.歌手在舞台上尽情表演后，嗓子受损，无法交流

B.李老师在课堂谈笑风生，吸引了众多学生的喜爱，但是在家却一直板着脸

C.工作为做好的小刘被领导要求写思想报告，回家后闷闷不乐

D.上高中的小文不喜欢和家人交流

69.消费信贷，是指银行等金融机构向消费者为消费而发放的贷款。消费信贷往往需要采取综合的担保措施以及进行充分的市场信用调查，在法律上表现为买卖合同（往往是分期付款买卖）、借款合同、担保合同的综合体。

根据上述定义，下列属于消费信贷的是（　　）

A.商家接受消费者信用卡支付

B.银行为民众提供购房贷款

C.众筹为贫困户走出困境

D.在资产清收、处置过程中，银行垫付债务人的诉讼费、经济纠纷款等

70.自我防御性归因是指通过强调自己对积极的、合乎期望的好结果的作用，缩小对消极的、不合乎期望的坏结果的责任来保护自尊。

根据上述定义，下列属于自我防御性归因的是：（　　）

A. 社会普遍认为学生学习的好坏取决于教师的教学水平

B.某企业家认为，一个成功的企业离不开优秀的员工和先进的管理方法

C. 某国 GDP 水平屡创新低，该国领导人表示，这是受到世界经济持续低迷的影响

D. 某企业因经营不善而面临破产，该企业领导承认企业领导班子在经营决策上存在失误

四、类比推理。每道题先给出一组相关的词，要求你在备选答案中找出一组与之在逻辑关系上最为贴近、相似或匹配的词。

请开始答题：

71.鲁迅：周树人

A.晨星：暮星　　B.北京：首都

C.闰土：故乡　　D.屏幕：电视

72.教师：学生

A.客户：购买　　B.桌子：桌面

C.父母：儿女　　D.暴雨：寒冷

73.暖水壶：保暖

A.鹅毛弹：除尘　　B.围：包围结构

C.书籍：看　　D.虾：食物

74.爱鹤失众：姬赤

A.江郎才尽：郭璞　　B.门可罗雀：司马迁

C.黄粱美梦：吕翁　　D.暗度陈仓：刘邦

75.凤梨：财运高涨

A.红色：醒目　　B.猪笼草：顺利

C.白色：恐怖　　D.黑色：恐怖

五、逻辑判断。每道题给出一段陈述，这段陈述被假设是正确的，不容置疑的。要求你根据这段陈述，选择一个答案。注意：正确的答案应与所给的陈述相符合，不需要任何附加说明即可从陈述中直接推出。

请开始答题：

76.某班级进行期末考试，关于班级同学的数学成绩，有如下断定：

(1)所有同学都及格了。

(2)如果小明及格，则小华不会不及格。

(3)除非小明及格，否则小华不会及格。

(4)小华及格，但小明不及格。

(5)有同学不及格。

如果上述断定至多有两项为真，则以下哪项一定为真?

A.所有同学都及格　　B.少数同学不及格

C.小明及格　　D.小华及格

77.近日，一项研究表明：肺癌等癌症很容易转移到其他部位，如脑、肝或骨骼，使其变得更难治疗。而辣椒中的天然化合物辣椒素可能是一种新的治疗肺癌转移的疗法。以下哪项如果为真，最能加强上述观点的是（　）。

A.研究人员在动物实验中培养了 3 种人类非小细胞肺癌细胞，他们发现，患有转移性癌症并摄入辣椒素的小鼠与未接受辣椒素治疗的小鼠相比，肺部转移性癌细胞区域更小；

B.辣椒素具有抑制肺癌转移的作用是通过抑制 Src 蛋白实现的。这种蛋白在控制细胞增殖、分化、运动和粘附等细胞过程的信号传导中起作用；

C.辣椒素有很多令人难受的副作用，包括胃肠道刺激、胃痉挛和烧灼感等；

D.肺癌的发病率和死亡率目前均高居癌症榜首位。若将肺癌看作刺向人身体的一把利剑，癌症转移则是最致命的那一击。

78.林芳开了一家水果店，前几日，林芳采购了一批水果。这次采购的水果有葡萄，苹果，桔子，梨，西瓜。这五种水果的采购量，西瓜的采购量少于葡萄，苹果的采购量比葡萄多，桔子的采购量不如梨多，西瓜的采购量比梨多。请问哪种水果采购量最大？

A.梨

B.西瓜

C.桔子

D.苹果

79.当全身心的投入一件事情，我们能够支持决策时的一系列消极心态反应。如果我们所做的一切事情、所说的话、所采取的行动源自安全感缺失的自我保护，那么专注能够制止他。专注地做一件事情，将自己作为这种行为的观察者，那么这种关注便不是没有重心的关注，对机会的寻求也不会因瞻前顾后，或者畏首畏尾而终止，机会所存在的不可知的未来也不再是不可穿越的险川。由此可以推出（ ）。

A.一个人做事不专注，那么在机会面前他就瞻前顾后或者畏首畏尾

B.有人认为机会存在的不可知的未来是不可穿越的险川，那么他做事不够专注

C.我们采取行动时有充满安全感的自我保护是因为我们当时足够专注

D.一个人关注一件事时有重心，那么他做这件事很专注

80.2009 年，美国威斯康星大学麦迪逊分校的一个研究团队称，吃的少的猕猴活得久，而且也能延缓与年龄有关的各种疾病的发作。因此得出结论，对人来讲，少吃能更长寿更健康。以下哪项如果为真，最能加强以上论证的是（ ）。

A.2012 年，美国国家老龄问题研究所指出限制热量摄入或许有助于身体健康，但对延长寿命并无益处

B.《自然·通讯》指出热量摄入确实对衰老有影响，降低 30%的热量摄入丝毫不会导致营养不良

C.威斯康星大学试验中控制饮食组的猕猴的寿命比平均寿命长 2 到 3 年，达到了 26 岁，并延缓了癌症、糖尿病及其他心血管疾病的发作时间；而不控制饮食组的猕猴的患病率和死亡率都提高了 3 倍

D.美国开展的人类临床试验证明，从人体观察到的低热量饮食对身体成分和血液中化学成分的影响与试验用猕猴一致

81.某用户在网上购买了一家网络公司的防晒护肤产品使用后，对其皮肤造成了伤害，随即去医院治疗才没有造成严重不良的后果。该用户致电厂家提出："要么赔偿医药费，要么加倍赔偿产

品款，二者必尽其一。厂家说："我们不能同意。"如果厂家坚持自己的主张，　以下哪项断定是厂家在逻辑上必须同意的？

A.如果既不赔偿医药费又不加倍赔偿产品款办不到的话，就必须接受既赔偿医药费又加倍赔偿产品款

B.加倍赔偿产品款但不赔偿医药费

C.既赔偿医药费又加倍赔偿产品款

D.既不赔偿医药费又不加倍赔偿产品款

82.开学第一天，王老师在班上做了一项调查发现，并非所有的学生都是95后。

若该命题为真，则下列陈述不能确定真假的是（　　）

Ⅰ.所有学生都不是95后

Ⅱ.所有学生都是95后

Ⅲ.有的学生是95后

Ⅳ.张三不是95后

A.Ⅰ、Ⅲ、Ⅳ　　B.Ⅰ、Ⅱ、Ⅲ、Ⅳ

C.Ⅱ、Ⅲ、Ⅳ　　D.Ⅰ、Ⅱ、Ⅳ

83.据苏州市的卫生检疫部门统计，和去年相比，今年该市胃炎患者的数量有明显的下降。医学专家认为，这是由于该市的饮食食品安全警示制度实施的结果。

以下哪项，最不能削弱上述权威人士的结论？（　　）

A.饮食食品安全警示制度实施后，苏州市感冒的人明显增多了

B.苏州市民对于饮食食品安全非常重视，在制度实施前，很多市民便严格遵守警示制度，安排自己的饮食

C.去年苏州市对餐饮业特别是卫生条件较差的大排档进行了严格的卫生检查和整顿

D.由于引进了新的诊断技术，许多以前被诊断为胃炎的病案，今年被确诊为胃部不适，并无大碍

84.逃避无法解决问题，这是不必然的。如果上述命题是真的，那么，以下哪个命题必然是真的？（　　）

A.逃避必然能解决问题

B.逃避必然不能解决问题

C.逃避可能无法解决问题

D.逃避可能能解决问题

85.大学生刚毕业就创业比毕业后几年再创业失败率要高。从这个角度来看，工作经验比资金、人际关系等因素对创业成功的影响更为重要。

以下哪项如果为真，最能削弱上述结论？（　　）

A.大学生毕业几年后再创业时一般把资金、人际关系等作为主要的考虑因素

B.大学生毕业后几年再创业，这些人的心智相对成熟一些，这个对创业成功也起到了一定的促进作用

C.创业的失败率近年逐步下降

D.一般来讲，创业是否失败和行业或者一个国家的经济环境还是有些关系的

四、数量与资料分析

一、数字推理

86、3　60　4　45　2　90　5　36　6　（　　）

A.40　　B.30

C.25　　D.35

87、$\frac{3}{17}$　$\frac{5}{27}$　$\frac{6}{32}$　$\frac{7}{37}$　（　　）

A. $\frac{8}{45}$　　B. $\frac{9}{48}$

C. $\frac{4}{22}$　　D. $\frac{2}{11}$

88、2　1　5　2　3　13　-3　3　18　-1　4　（　　）

A.17　　B.20

C.25　　D.15

89、4　5　11　14　22　27　（　　）

A.40　　B.33

C.35　　D.37

90、3　4　10　28　48　104　（　　）

A.210　　B.200

C.204　　D.198

二、数学运算

91.有一年的元旦是星期四，再经过 199019901990……1990 天是星期几？

2000 个 1990

A.星期一B.星期四

C.星期六D.星期日

92.一个三位数分别除以 3、4、5 都余 2，如果在它的后面添上两个数字，使它成为一个五位数，并且能被 3、4、5 整除，那么符合条件的最小五位数是多少？

A.12204　B.12240

C.12180　D.12120

93.一项工程甲单独完成需要 20 天，乙单独完成需要 15 天，丙单独完成需要 12 天。现甲单独工作若干天后，乙加入一起工作，又若干天后，丙也加入一起工作，则恰好在第 10 天完成工作，问丙工作了几天？

A.2　B.4

C.6　D.8

94.某市召集 100 名工人修建城市轻轨，原计划 10 天完工。开工 5 天后其中 50 名工人被安排到别的地方去修建高速公路，其余人继续修建城市轻轨。假如每名工人每天的工作效率不变，那么修建完成城市轻轨实际用几天？

A.10　　B.12

C.15　　D.18

95.甲乙两人相向而行，在 A、B 两地之间折返运动，甲的速度为 10m/s,乙的速度 8m/s,甲从 A 地出发，乙从 B 地出发，10s 后第一次相遇，在 80s 内最后一次相遇时，甲距离 A 地的距离是多少米（　　）。

A.20　　B.40

C.140　D.160

96.商场新进一批运动服,当售出全部的 60%,恰好收回全部成本的 80%;由于换季余下的运动服准备打 9 折出售，当商场将这批运动服全部售出时,商店共盈利多少？

A.24%　B.28%

C.32%　D.36%

97.某办公室中 5 人中有 2 人喜欢打篮球。如果从中任意选出 3 人，其中恰好有一人喜欢打篮球的概率是多少？

A.0.5　B.0.6

C.0.7　D.0.8

98.某单位买了 34 个大小相同的柚子作为中秋福利，该单位总共有 8 人，若每人至少分得 4 个，总共有多少种分法？

A.16　B.24

C.36　D.48

99.若将一个长为 8 厘米、宽为 4 厘米长方形盖在一个圆上，两个图形重叠的部分的面积占圆面积的$\frac{4}{7}$，占长方形面积的一半。则这个圆的半径约为多少厘米？

A.1　B.2

C.3　D.4

100.单位 A、B、C、D 4 个科室分别有 5 名、7 名、4 名、9 名职工。现抽调 2 名来自不同科室的职工参加调研活动，问有多少种挑选方式？

A.100　B.128

C.191　D.227

三、资料分析

初步核算，2018 年福建省全年实现地区生产总值 35804.04 亿元，比上年增长 8.3%。其中，第一产业增加值 2379.82 亿元；第二产业增加值 17232.36 亿元，增长 8.5%；第三产业增加值 16191.86 亿元，增长 8.8%。第一产业增加值占地区生产总值的比重为 6.7%，第二产业增加值

比重为 48.1%，第三产业增加值比重为 45.2%。全年人均地区生产总值 91197 元，比上年增长 7.4%。

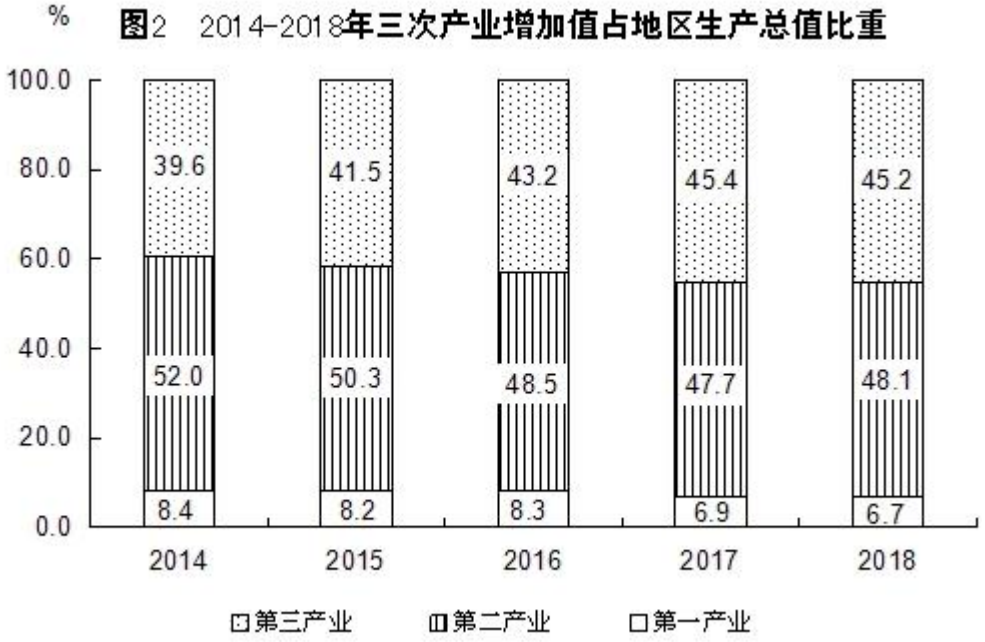

101.2018 年全年人均地区生产总值与上年同期相比增长（　　）元。

A. 6284　　B. 6514

C. 6080　　D. 3622

102.2018年第一产业增加值与上年同期相比增长（　　）。

A.-2.9%　　B. 3.5%

C. 8.4%　　D. 9.6%

103.2013年地区生产总值约为（　）亿元。

A.23012　　B.26478

C.21889　　D.21664

104.全年地区生产总值增长量最大的年份为（　　）。

A.2018 年　　B.2017 年

C.2016 年　　D.2015 年

105.根据材料，可以判断以下正确的是（　　）。

A.2014—2018 年，地区生产总值逐年递减。

B.2014—2017 年，第二产业增加值逐年递减。

C.2015 年第一产业增加值约为 2130 亿元。

D.2017 年，福建省人数约为 3926 万人。

2018 年 1-11 月份，全国网上零售额 80689 亿元，同比增长 24.1%。其中，实物商品网上零售额 62710 亿元，增长 25.4%，占社会消费品零售总额的比重为 18.2%；在实物商品网上零售额中，吃、穿和用类商品分别增长 36.3%、21.2%和 25.8%。

2018 年 11 月份社会消费品零售总额主要数据

指　标	11 月		1-11 月	
	绝对量（亿元）	同比增长（%）	绝对量（亿元）	同比增长（%）
社会消费品零售总额	35260	8.1	345093	9.1
其中：限额以上单位消费品零售额	13679	2.1	130830	6.1
其中：实物商品网上零售额	-	-	62710	25.4
按经营地分				
城镇	29990	7.9	295308	8.9
乡村	5270	?	49785	10.2
按消费类型分				
餐饮收入	4525	8.6	38294	9.5
其中：限额以上单位餐饮收入	817	4.0	8357	6.5
商品零售	30735	8.0	306799	9.0
其中：限额以上单位商品零售	12862	2.0	122473	6.1
粮油、食品类	1255	10.6	12420	10.1
饮料类	177	7.9	1863	9.0
烟酒类	334	3.1	3502	7.3
服装鞋帽、针纺织品类	1418	5.5	12198	8.1

化妆品类	280	4.4	2375	10.5
金银珠宝类	230	5.6	2494	8.1
日用品类	538	16.0	4854	13.4
家用电器和音像器材类	946	12.5	7965	8.3
中西药品类	532	9.3	5091	9.3
文化办公用品类	360	-0.4	2897	4.0
家具类	221	8.0	2042	9.8
通讯器材类	485	-5.9	3968	8.0
石油及制品类	1695	8.5	17873	14.0
汽车类	3459	-10.0	34783	-1.6
建筑及装潢材料类	253	9.8	2252	8.1

注：1.此表速度均为未扣除价格因素的名义增速；
2.此表中部分数据因四舍五入的原因，存在总计与分项合计不等的情况。

106.2017 年 1-11 月份全国实物商品网上零售额约为（　　）万亿元。

A. 4　　B. 5.5

C. 5　　D. 6.5

107. 2018 年 1-10 限额以上单位消费品零售额月均约为（　　）亿元。

A. 11700　　B. 12000

C. 13000　　D. 13700

108. 2018 年 11 月表中占限额以上单位商品零售比重比上一年有所下降的限额以上单位商品有（　　）个。

A. 1　　B. 2

C. 3　　D. 4

109. 表中“？”应填入（　）。

A. 7.4　　B. 7.8

C. 8.4　　D. 9.3

110.能够从上述材料推出的是：

A. 2018 年 11 月餐饮收入占社会消费品零售总额比重低于一成

B. 2017 年 1-11 月份社会消费品零售总额约是全国网上零售额的 4.9 倍

C. 2018 年 1-11 月份表中所列社会消费品零售额均比上年同期有所增长

D. 2018 年 11 月份服装鞋帽、针纺织品类零售额低于前十个月的月均零售额