关注微信公众号福建事业考试（fjshiye）获取最新招考咨询！

准考证号

姓名_____

2019 年福建省事业单位公开招聘考试
《综合基础知识》模拟试卷

厦门华图

厦门华图事业教研中心　审定

关注微信公众号福建事业考试（fjshiye）获取最新招考咨询！

说明

这项测验共有六个部分，110 道题，总分时限为 120 分钟。

请在机读答题卡上严格按照要求填写好自己的姓名、涂写准考证号。

请仔细阅读下面的注意事项，这对你获得成功非常重要：

1、题目应在答题卡上作答，不要在题本上作任何记号。

2、监考人员宣布考试开始时，你才可以开始答题。

3、监考人员宣布考试结束时，你应立即放下铅笔，考试题本、答题卡和草稿纸都留在桌上，然后离开。

如果你违反了以上任何一项要求，都将影响你的成绩。

1、在这项测验中，可能有一些试题较难，因此你不要在一道题上思考时间太久， 遇到不会答的题目，可先跳过去，如果有时间再去思考。否则，你可能没有时间完成后面的题目。

2、试题答错不倒扣分。

3、特别提醒你注意，涂写答案时一定要认准题号。严禁折叠答题卡！

停！请不要往下翻！听侯监考老师的指示。

否则，会影响你的成绩。

第一部分 公共基础知识

（共25题，每题分值0.8，共20分）

1.党的初心和使命是党的性质宗旨、理想信念、奋斗目标的集中体现，越是长期执政，越不能忘记党的初心使命，越不能丧失_____，在新时代把党的自我革命推向深入，把党建设成为始终走在时代前列、人民衷心拥护、勇于自我革命、经得起各种风浪考验、朝气蓬勃的马克思主义执政党。（　　）

A.自我革命精神　　B.自我反省精神

C.自我批评精神　　D.自我学习精神

2.“一带一路”建设秉承的原则是共商、共建、_____（　　）

A.共赢　　B.共享

C.共管　　C.共创

3.与下列两幅漫画所反映的哲学史上的“对子”对应正确的是：（　　）

巧媳妇

A.“气者，理之依也”、“人病则忧惧，忧惧则鬼出”

B.“观念的东西不外是移入人的头脑并被人的头脑改造过的物质的东西而已”、“有条件要上，没条件也要上”

C.“时人不识凌云木，直待凌云始道高”、“读书百遍，其义自现”

D.“我思故我在”、“是就是，不是就不是”

4习近平强调，要从推动科学决策、民主决策，推进国家治理体系和治理能力现代化，增强国家软实力的战略高度，把中国特色新型智库建设作为一项重大而紧迫的任务切实抓

好。重视智库建设的认识论依据是（　　）
①脑力劳动者的认识活动越来越具有直接现实性
②任何具体的认识主体总是具有自身的局限性
③不同认识主体相互取长补短有利于发现真理
④得到不同认识主体认同的知识才具有真理性
A. ①②　　B. ①④　　C. ②③　　D. ③④

5.毛泽东在《党委会的工作方法》中指出："一个人的工作，究竟是三分成绩七分错误，还是七分成绩三分错误，必须有个根本的估计。如果是七分成绩，那么就应对他的工作基本上加以肯定。把成绩为主说成错误为主，那就完全错了。"从唯物辩证法看，这里强调的是（　　）
①事物的性质是由主要矛盾的主要方面决定的
②无视矛盾的次要方面就不能正确认识矛盾
③矛盾的主要方面与次要方面既相互依赖又相互转化
④在认识矛盾时须着重把握矛盾的主要方面
①③　　B. ①④　　C. ②③　　D. ②④

6.中共中央，国务院出台的《关于构建和谐劳动关系的意见》强调，推动中国特色和谐劳动关系的建设和发展，最大限度增加劳动关系和谐因素，最大限度减少不和谐因素，促进经济持续健康发展和社会和谐稳定，从唯物史观看，之所以重视构建和谐劳动关系，是因为（　　）
①劳动关系是生产关系的重要组成部分，决定着生产关系的性质
②劳动关系矛盾是制约生产发展，社会进步的重要矛盾
③劳动关系矛盾的解决决定了生产力的发展和社会的进步
④正确解决劳动关系矛盾是构建和谐社会的必然要求
①②　　B. ①③　　C. ②④　　D. ③④

7.图3漫画《学习先进经验》讽刺了一些人不懂得（　　）

图3 《学习先进经验》（赵汀阳，《读书》）
①学习他人经验就能更好的发展自己
②先进经验通过实践能够转化为现实的东西
③具体问题具体分析是正确解决矛盾的关键
④事物的表面联系与本质联系的区别
①②　　B. ①③　　C. ②④　　D. ③④

8.匾额文化发源于中国，从春秋战国开始,至今已有2500多年历史。历史上曾出现“无处不匾”“无门不匾”的盛况。匾额被称为“古建筑的灵魂”,是中华民族特有的文化遗产,也是中华优秀传统文化的重要载体。它集文学、书法、雕刻、装饰艺术于一体,广泛应用于社会生活的各个层面,具有强烈的艺术感染力和较高的学术价值。但是,随着社会变迁,匾额逐渐淡出日常生活,日益被国人遗忘。为此,我们要（　　）

A.遵循文化发展规律,顺应匾额文化日渐式微的历史必然性

B.萃取匾额文化精华,以其凝聚社会共识、引领社会思潮

C.复兴匾额文化之风,以其所承载的优秀传统文化树立文化自信

D.深度挖掘和创新阐发,将匾额文化活化为社会文化新风尚

9.2018年春节晚会上有个相声节目《我爱诗词》,向广大人民群众展示了诗词的魅力。诗、诗歌魅力无穷,尤其是中国的古诗,甚至不少爱好诗词的中国专家学者自豪地说:“诗是不可译的,中国古典诗歌更是不可译的。”但这也是中国古典诗歌的缺憾,如果我们不创新形式走出去,就会影响中华文化走向世界。这给我们的启示是（　　）

①发挥文化的基础性作用,向其他国家传播中华文化

②重视文化交流,做传播中华文化的使者

③创新文化传播方式,加强与不同国家的文化交流与学习

④树立高度的文化自觉和文化自信,促使东西方文化相融合

①②　　B.②③　　C.②④　　D.③④

10. 用以偿还债务的货币，执行的是（　　）

A.流通手段职能　　B.贮藏手段职能

C.支付手段职能　　D.购买手段职能

11．S国是政府主导特征明显的市场经济模式国家，其发展中的资源配置低效、社会不公问题突出，改革转型的呼声很高。如果借鉴其他市场经济模式，该国实施改革的可能取向是（　　）。

①着力宏观调控，促使经济稳定增长

②扩大市场作用，激发社会资本活力

③完善分配制度，提升社会保障水平

④增强政府干预，提高资源配置效率

①③　　B.①④　　C.②③　　D.②④

12.PPP模式，是指政府与私人组织之间，为了提供某种公共物品和服务，以特许权协议为基础，彼此之间形成一种伙伴式的合作关系（如图）。近期，国家发改委印发了 44个重大市政工程领域重点PPP项目。从图示看，国家之所以开展PPP项目，是因为该模式（　　）

①利于减小社会主体的投资风险

②可促进投资主体多元化

③能提高公共服务的质量和效率

④能够减轻政府财政负担。

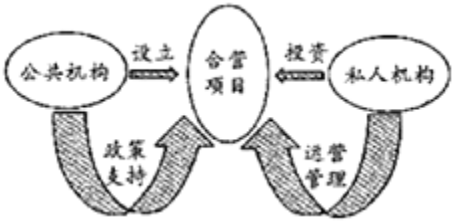

A. ①②　　B. ①④　　C. ②③　　D. ③④

13.中国证监会决定，为增加投资动作便利，引入更多境外长期资金，今后证监会原则上不再对合格境外机构投资者、人民币合格境外投资者资产配置比例作出限制，由其自主决定。实施该政策对中国资本市场的影响是（　　）
①灵活性增强→收益性增强→外资涌入→国内资本投资竞争压力加大
②市场竞争加剧→获利减少→资本市场萎缩→资本流出中国市场
③吸引力增强→资本流动性增强→资本配置效率提高→资本收益增加
④准入门槛降低→境外投资增加→资本风险加剧→收入降低
A.①②　　B.①③　　C.②③　　D.③④

14.某地政府为扶持本地矿泉水企业的成长，通过下发文件把该企业的矿泉水列为辖区指定的饮用水，要求辖区各乡镇、街不得使用其他品牌饮用水，这种做法（　　）
A.正确运用了行政手段调控经济
B.破坏了公平竞争的市场秩序
C.有利于增强本地企业的竞争力
D.有利于实现资源的优化配置

15.下列对于法的作用的表述不正确的是（　　）
①法可为他人行为做尺度和标准，因此法具有强制作用
②法可以预测当事人双方之间的行为
③法律是调整社会关系的唯一方法
④稳定性和保守性导致了法律的滞后性
A.①③　B.①④　C.②④　D②③

16.之所以说我国宪法属于刚性宪法，是因为（　　）
A.我国宪法具有最高的法律地位和法律效力
B.我国宪法的修改机关或者修改程序不同于普通法律
C.我国制宪主体为人民或其代议机关
D.我国宪法是社会主义性质的宪法

17.下列关于民族区域自治制度表述正确的是（　　）
A. 我国民族自治机关包括自治区、自治州、自治县和民族乡的人大及人民政府。不包括法院、检察院和监察委员会。

B. 自治条例、单行条例不可以与国家法律和政策有冲突。
C.我国民族自治地方享有高度的自治权
D. 自治区的自治条例与单行条例报全国人大常委会批准后生效

18. 当事人有下列哪些情形的，应当依法从轻或者减轻行政处罚（　　）
①主动消除或者减轻违法行为危害后果的
②受他人教唆有违法行为的
③配合行政机关查处违法行为有立功表现的
④违法行为轻微并及时纠正，没有造成危害后果的
A①②　B①③　C③④　D②④

19.关于我国《刑法》溯及力表述正确的是（　　）
①从新　②从旧　③从重　④从轻
A①③　B①④　C②③　D②④

20.下列属于不作为犯罪的是（　　）
A甲想要毒杀乙，就在乙的食物中投入和老鼠药，不料丙却突然进屋一起与乙享用事物，全程甲一言不发，导致乙丙死亡。
B老王和邻居老李一直有矛盾，有一天老王在水库游泳时，恰巧看到了老李也再游泳并且溺水，但老王却直接回家，老李溺亡。
C刘某将自己刚出生的孩子扔在了医院的门口，便匆匆离去
D小李叫上自己10岁的侄子开车兜风，中途小李下车办事，侄子自己把车开走了，小李却没有阻拦而是选择自己打车回家，最后小李侄子出车祸身亡。

21.下列关于归责原则表述正确的有（　　）
A无过错责任的构成要件中没有“行为人施加了加害行为”
B由于医患关系中患者较为弱势，所以患者在诊疗活动中受到损害，医疗机构适用一般过错原则
C教育机构内发生侵权事件，均适用过错推定原则
D机动车与非机动车驾驶人、行人之间发生交通事故，如非机动车驾驶人、行人有过错，机动车一方不用承担赔偿责任。

22.某市规定，对下派社区的工作事务，实行清单管理：属于各部门/街道办事处职责范围内的事项，不得转嫁给社区：需要社区协助的事项，应当为社区提供必要的经费和工作条件。这一规定（　　）
①彰显了社区组织的自治功能
②创新了社区组织管理形式
③有利于推进社区居民的自我管理
④旨在提高基层政府行政效
A. ①③　B. ①④　C. ②③　D. ③④

23.党的十八大以来，中国不断刷新的减贫成绩单令世界惊叹，截止2018年底，农村贫困人口减少了八千多万。中国与广大发展中国家分享减贫经验和资源，为实现联合国2030年可持续发展目标中的减贫目标作出贡献。由此可见（　　）
A. 中国支持联合国进行的各项工作
B. 要和平，促发展已成为世界各国的共同愿望
C. 中国是促进世界稳定和发展的重要力量
D. 中国推动建设相互尊重，公平正义的新型国际关系

24.下列关于公文的说法，正确的有（　　）
A公文发布后必须执行
B附件应当与正文分开装订
C函适用于不相隶属机关之间
D发文处理程序中，审核之后方能会搞

25.为了着力乡村振兴，拓展高质量发展新空间，我们必须（　　）
①藏粮于地
②藏粮于技
③藏粮于农
④藏粮于村
A①②　B①④　C②③　D④③

第二部分 言语理解与表达

（共15题，每题分值0.9，共13.5分）

26.对于这些违法违禁音视频，究竟由谁来清理，如何来清理，还得有点法律意识，遵守法规程序，不能_____，想怎么来就怎么来。诚然，随着网络科技的发展，手机、电脑、移动硬盘、U盘等存储介质，的确是违规违禁音视频的“重灾区”，但是如何才能有效清理，却要依法依规。另外，还要跳出手机电脑的“_____”，在思想教育、内网规范、日常管理、预警预防等方面“精耕细作”，如此才能真正起到治理不法音视频、净化校园文化的效果。
填入划线部分最恰当的一项是：（　　）
A. 人云亦云　框架
B. 随波逐流　束缚
C. 听之任之　羁绊
D. 信马由缰　窠臼

27. 由胡玫执导的全新电影版《红楼梦》在北京启动全球海选，宣布中国古典四大名著之首《红楼梦》将_____大银幕。《红楼梦》的故事充满了人生的玄机，文化社会内涵极其_____。每一次读都有不同的_____，想把它拍出来给大家分享。

依次填入划横线部分最恰当的一项是（　　）
A. 呈现　丰硕　体会
B. 凸现　丰厚　感受
C. 再现　丰富　感悟
D. 重现　充分　感触

28. 勃朗特小说的真实感长期以来一直是小说最大的优点。《经济学人》在1847年写过该小说的书评，称其“极其_____”，还有“远离_____的流行小说元素”等等。不过，它有时将“自传元素“和“自传”相混淆，因此，其中许多真实事件同虚构场景的对比感觉像是_____。
依次填入划横线部分最恰当的一项是（　　）
A. 感人　哗众取宠　若合符节
B. 逼真　矫揉造作　牵强附会
C. 传神　装腔作势　恰如其分
D. 真实　风靡一时　曲意逢迎

29. 银联卡小额免密功能的优点显而易见。对于用户来说，不用输密码不签字的确很方便；对于银行，有利于银行卡的技术创新和效率的提升。在银联能够提供安全保证措施，保证消费者的资金安全的情况下，开通该项功能没什么问题。但是前提是，银行必须保障用户的知情权，默认开通或者通过公告等方式告知，都显得太过于简单随意，难免让用户产生不必要的担忧。
这段文字意在说明：（　　）
A. 银联小额免密支付虽然有一定局限，但仍可以推行
B. 银行要注意保护小额免密支付用户知情权
C. 免密支付在很多方面会损害用户权益
D. 小额免密支付用户必须加强自身权益保护

30. 相比电影院，私人影院深受小资市民的钟爱。每个包厢虽只能容纳两到三人，但独具个性的装修、氛围，确保了观影的自由性和私密性，同时也更方便交流评说。值得注意的是，私人影院目前存在诸多问题。影院由于空间隐秘，涉及黄、赌、毒的问题不可避免，而且很多私人影院没有影片播映的经营许可，播放的是摄影机盗录的“枪版”影片。特别是治安消防也隐患重重，既没有消防安全检查合格证，安全出口又经常被堵，有些甚至不设安全出口。
这段文字作者想强调的是:（　　）
A. 私人影院目前游离于法律法规之外
B. 治安消防隐患是私人影院最大的问题
C. 必须严格规范私人影院，治理滋生乱象
D. 严格规范私人影院是大势所趋

31. 通常，阳光紫外线辐射所引起的未修复的皮肤细胞DNA损伤会引发遗传缺陷，导致皮肤细胞迅速增殖并形成恶性肿瘤，出现黑色素瘤。日前，以色列特拉维夫大学研究人员

称，他们已开发出一种新型纳米疫苗，用于对抗最具攻击性的皮肤癌——黑色素瘤。目前，纳米疫苗已完成临床前研究，下一步则是将技术转移到公司，扩大纳米疫苗的生产，然后继续进行临床试验。该研究项目带头人、特拉维夫大学萨克勒医学院癌症研究和纳米医学实验室负责人萝妮特·萨奇-费纳洛表示，疫苗方法已证明能够有效对抗多种病毒性疾病，但尚未用于应对癌症。在新的研究中，她和同事证明有望生产出一种有效的抗黑色素瘤纳米疫苗，实现黑色素瘤免疫疗法。

下列说法正确的是：（　　）

A.出现黑色素瘤是由于紫外线辐射

B.新型纳米疫苗可以用于应对癌症

C.新型纳米疫苗有望对抗黑色素瘤

D.抗黑色素瘤纳米疫苗已投入生产

32. 目前人工智能的运用对学生的影响日益引起教育专家的关注，首都师范大学教育学院院长蔡春教授则提出要警惕一种翻转现象，即技术化的教育产品开发越来越专业化、复杂化，教师则在使用这些便利的产品的过程中越来越简单化、机械化，从而日益丧失其专业性。要解决这个问题，必须实施深度教学，而深度教学的基本表现便在于实现认知目标在传统课堂上的翻转，即在课堂上实现分析、评价、创造等目标对记忆、理解、运用等目标的翻转，这需要高专业水准的教师才能完成。因此，师范大学必须深入思考人工智能时代的教师教育变革，培养高素质、专业化的“哲人之师”，以更好地适应与促进人工智能时代的未来教育。

上述文字主要想表达的是：（　　）

A.呼吁广大民众警惕人工智能运用的翻转现象

B.人工智能引入教学实践存在的问题

C.解决翻转现象需要实施深度教学

D.应该培养高专业水准的教师以适应人工智能的未来教育

33. 近年来，我国数字文化产业持续稳定发展，产业实力不断增强，社会影响力不断提高。尤其是随着动漫、游戏、网络文学等数字文化业态的受众越来越多、辐射面越来越广，社会赋予数字文化企业的责任也越来越大。于是，如何始终坚持把社会效益放在首位，努力实现社会效益和经济效益的有机统一，成为众多数字文化企业在发展中考虑的重要问题。

这段文字意在说明：（　　）

A.数字文化企业的发展战略问题

B.数字文化企业责任被赋予更大责任

C.数字化产业随时代开始发展壮大

D.数字文化企业开始重视社会效益

34. 启动于2011年的“百场儿童剧圆梦进校园”活动，已经成了河北省话剧院的知名品牌。话剧院儿童剧团每年雷打不动地赴河北省基层学校义务演出100场，到今年已经进入了第五个年头。过去的4年里，流动的舞台车驶入全省近100个市县的460余所学校，为包括学龄前儿童、中小学生在内的近80万观众演出408场，其中，来自农村地区、偏远贫困

地区、革命老区的儿童及留守儿童等占到了60%以上。哪里文化资源少就去哪里，越是偏远的学校越是优先演出，剧团逆着文化资源分布不均的现状而上，把经典儿童剧带到了那些可能从未接触过戏剧的孩子们身边。除了孩子欢迎，有时一场演出竟然吸引了几十里外的音乐教师、舞蹈教师前来观看，毕竟农村的艺术教育中像这样可供观摩的机会还是太少。

下列叙述不能推出的一项是：（　　）

A.农村的艺术教育应多提供观摩的机会

B.儿童剧团已经义务演出了五个年头

C.前来观看演出的观众达80万人以上

D.剧团义演的目的是想让没接触过戏剧的孩子们有机会接受艺术教育

35. 在我国进行社会主义现代化建设，没有现成经验可以借鉴，不能简单套用西方理论来解释中国的发展现实，更不能用西方理论来指导解决中国现实问题。我们要立足中国实际，对我国社会主义现代化建设进行理论上的深入阐释，提出具有主体性、原创性的理论观点，构建中国话语体系。中国话语体系是中国道路的理论表达和中国经验的理论提升，体现走向现代化的中国智慧、中国方案。

这段文字的主旨是：（　　）

A.建设社会主义不能用西方的理论来指导

B.中国话语体系是中国的理论表达和提升

C.中国社会主义现代化建设没有经验可借鉴

D.立足中国实际进行理论探索构建中国话语体系

36. “过期药”是什么垃圾？这个问题并不难回答，但过期药处理却很麻烦。各地在推进垃圾分类工作时，更重视干湿垃圾的分类，容易忽视过期药、电池等有害垃圾的分类和处理，部分社区甚至没有设置有害物垃圾桶，导致过期药回收、处理很麻烦。据推算，每百万户家庭过期药物可达2.15亿粒，如此巨量的过期药，假若不能得到妥善处置的话，势必会衍生非常严重的后果。因此，各地在落实垃圾分类政策时，要把工作做细，千万莫忘了过期药品，以免遗患无穷。

这段文字意在强调：（　　）

A.过期的药品处理起来很麻烦

B.过期药物数量巨大处理不好问题严重

C.垃圾分类不要忘了过期药品

D.过期药品属不属于垃圾难以确定

37. 外媒称，印度7月22日发射了一枚具有里程碑意义的月球探测器，旨在成为第四个实现登月壮举的国家。据法新社7月22日报道，“月船2号”按计划于当地时间22日下午2时43分（格林尼治标准时间9时13分）从印度南部安得拉邦海岸外的斯里赫里戈达岛的萨蒂什·达万航天中心发射升空当火箭飞入印度洋上空的灰色天空，任务控制部门宣布轨道飞行器与火箭成功分离后，任务控制室内爆发出了热烈的掌声。印度空间研究组织（ISRO）负责人K·西万说：“今天对印度空间、科学和技术来说是历史性的一天。”

最适合这段新闻的标题是：（　　）

A. 印度“月船2号”探测器升空 有望成登月第四国
B. 7月22日 印度迎来历史性的一天
C. “月船2号”印度空间科技的里程碑
D. 月球探测器“月船2号”顺利发射

38. 多年以来，保健品市场虚火旺盛，乱象纷呈。据媒体透露，保健品行业利润可达100%至200%，经销商花式营销，广告铺天盖地，老人们疯狂购买各种保健品成为都市一景，其中最大的吸引力便是保健品可以“延年益寿”“包治百病”，在很多药店，药品和保健品并排展示，甚至可以用医保卡购买，这些都给老百姓造成了“保健品等同于药品”的错误“惯性认知”。实际上，保健品是保健食品的通俗说法，也就是说属于食品一类。有鉴于此，要求保健品明确标识“保健品不是药”，乃本正清源的有力举措。
这段文字意在说明：（　　）
A. 保健品食品出现宣传乱象
B. 老人们对保健品存在误解
C. 保健品属于食品非药品
D. 应要求保健品明确标识

39. 不少消费者表示，商家可以尽量避免过度包装。还有一些类似腰封、过度厚实的一次性塑料餐盒、餐具包装等，观赏功能也大于使用价值。目前产生的大量外卖垃圾问题，尤其是餐盒，尚没有很好的替代和解决方案，但是产业链上各方还有努力的空间。平台可以为用户提供对商家在环保方面表现的反馈途径，商家也要更严格地自我约束，为顾客提供更安全的食物包装等。过去，在回收过程中，外卖餐盒中的餐余、油脂等容易污染其它可回收物，带来过高的处理成本。对于大量的外卖垃圾如何进一步回收利用，市场上已经出现一些专门的机构和企业。自从上海在全国首先实行垃圾分类，外卖垃圾的回收与再利用也被认为燃起了“新的希望”。
对于文段中“新的希望”理解错误的一项是：（　　）
A. 重新燃起消费者对外卖餐具良莠不齐的希望
B. 引导商家和消费者选择更环保的方式
C. 垃圾回收机构优化外卖餐盒的回收
D. 多方努力解决外卖垃圾问题

40. 随着量子网络的发展，人们发现其复杂的拓扑结构和其中相互独立的纠缠源，会给量子非定域性带来更加丰富的物理内涵和更多潜在的应用。相比于二体系统下的贝尔不等式，违背该二元定域不等式，即验证非二元定域性，对系统对比度的要求更低，而且具有更高的噪声容忍度。量子网络中的多元定域不等式以及其应用的研究成为当今一个热点。然而，实现对二元定域不等式的无漏洞检验却存在很大的技术难度。实验人员利用其前期工作基础，极大缩短了非定域性检验所需的距离要求，从而使得只需构建小型量子网络就可以同时关闭定域性和测量独立性漏洞。
下列说法正确的一项是：（　　）
A. 多元定域不等式广泛应用于科学研究
B. 量子网络中的重要技术有潜在科技应用价值

C. 小型量子网络的构建是解决无漏洞检验的最佳途径
D. 验证二元定域不等式的操作更为简单

第三部分 判断推理

本部分包含五种类型，共30道试题。

图形推理

请认真观察每组图形，理解其中含义，判断出它的逻辑和顺序，并在四个选项中选择最正确的答案。(共5题，每题0.6分，计3分)

41从所给的四个选项中，选择最合适的一个填入问号处，使之呈现一定的规律性：



42从所给的四个选项中，选择最合适的一个填入问号处，使之呈现一定的规律性：



43从所给的四个选项中，选择最合适的一个填入问号处，使之呈现一定的规律性：

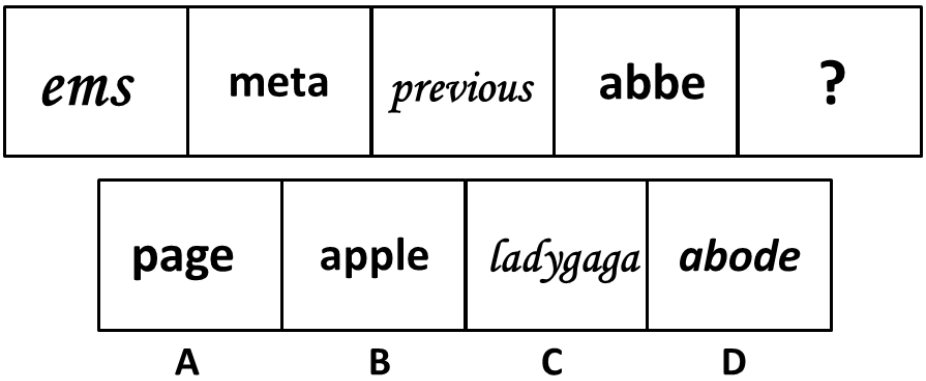

44从所给的四个选项中，选择最合适的一个填入问号处，使之呈现一定的规律性：

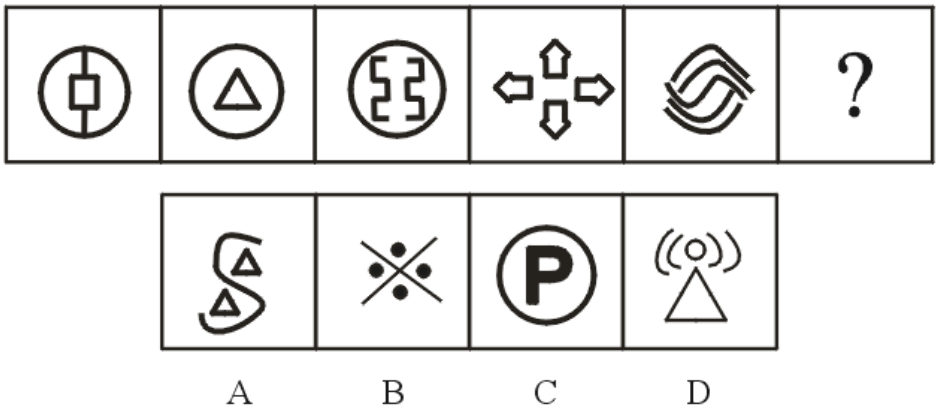

45从所给的四个选项中，选择最合适的一个填入问号处，使之呈现一定的规律性：

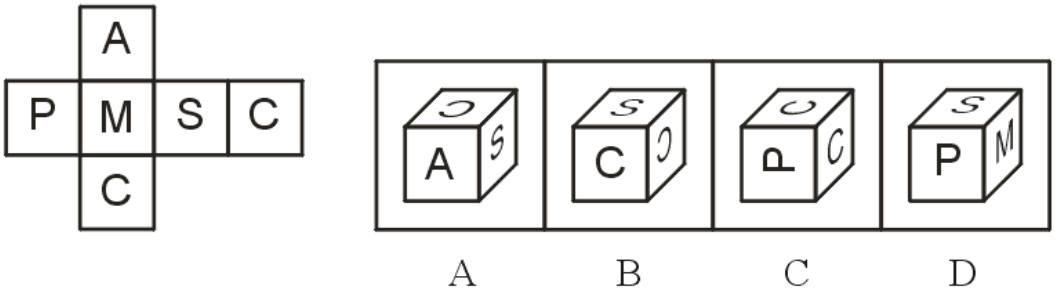

类比推理

（(共5题，每题0.8分，计4分）

每道题先给出一组相关的词，要求你在备选答案中找出一组与之有逻辑关系上最为贴近、相似或匹配的词。

46四叶草：幸运
A.菊花：淡薄名利　　B.梅花：高风亮节
C.竹子：忠贞不渝　　D.兰花：坚韧不拔

47羽绒服　之于（　　）相当于（　　）之于　去污。
A.羽毛：洗衣粉　　B.御寒：洗洁精
C.修身：洗衣液　　D.洗衣机：玻璃水

48音乐：摇滚：嘻哈
A.书籍：杂志：教材　　B.恒星：太阳：月球
C.水果：苹果：甘蓝　　D.航天器：火箭炮：宇宙飞船

49雪中送炭：宋太宗
A.望梅止渴：陆逊　　B.火烧连营：刘备
C.指鹿为马：秦始皇　　D.草船借箭：诸葛亮

50雪花：水
A.雾：风　　B.曹雪芹：曹梦阮
C.金刚石：石墨　　D.黄河：河流

定义判断

（共5题，每题0.7分，计3.5分）

每道题先给出一个定义，然后列出四种情况，要求你严格依据定义，从四个备选项中选出一个最符合或最不符合该定义的答案。注意：假设这个定义是正确的，不容置疑的。

51企业通过专设信息机构、信息主管，配备适应现代企业管理运营要求的自动化、智能化、高技术硬件、软件、设备、设施，建立包括网络、数据库和各类信息管理系统在内的工作平台，提高企业经营管理效率的发展模式。
根据上述定义，下列不属于企业信息化建设的是（　）。
A.企业建立一种面向市场需求具有快速响应机制的网络化制造模式。数控机床成为现代加工车间普遍使用的设备，构建网络化数控车间生产现场的信息数据交换平台尤为重要。
B.学校为了提升学生全面发展的潜质，开设了互联网网络课程，让学生了解一些实用的网络操作技巧来帮助学习。
C.企业在数字化车间的方案设计中，数据管理对企业车间信息化平台的支撑是必不可少的。管理人员不用离开办公桌，就能查看到整个部门或指定设备的状态，便于对车间生产及时做出可靠、准确的决策。
D.企业把制造业与制造过程数据文档管理系统有机结合在一起时，就能通过计算机网络和数据库技术，把车间生产过程中所有与生产相关的信息和过程集成起来统一管理，为工程技术人员提供一个协同工作的环境，快速指导生产，达到标准化作业。

52健康管理是指一种对个人或人群的健康危险因素进行全面管理的过程。其宗旨是调动个人及集体的积极性，有效地利用有限的资源来达到最大的健康效果。在我国，健康管理

服务由具有执业资格的"健康管理师"来提供。我国十三五之后提出“大健康”建设，把提高全民健康管理水平放在国家战略高度。根据“规划”，群众健康将从医疗转向预防为主，不断提高民众的自我健康管理意识。
根据上述定义，下列不属于健康管理服务的是（　　）。
A.小李是个白领长期从事办公室工作，长时间坐位、运动不足、长期使用计算机等，导致了颈、腰肌劳损、颈椎病。为此，他去寻求执业资格的健康管理师小红是否有解决的办法。
B.老王在工地长期工作，导致了腰肌劳损等症状，为此他前去有职业资格的小黄寻求调整身体的方法来对自己的健康能够有效地管理。
C.在社会地不断发展下，亚健康人群不断增多，为此健康委员会组织了一群长期在办公室工作的人群前去一个专门的具有职业的资格的健康管理机构前去咨询。
D.企业为了增强员工的身体素质，定期组织员工集体参与一些运动来缓解自己身心的疲惫，提高身体素质，提升工作效率。

53.“蘑菇管理”指的是组织或个人对待新进者的一种管理心态。因为初学者常常被置于阴暗的角落，不受重视的部门，只是做一些打杂跑腿的工作，受到无端的批评、指责、代人受过，组织或个人任其自生自灭，初学者得不到必要的指导和提携，这种情况与蘑菇的生长情景极为相似。一般在管理机构比较正式的大企业和公司里，这种情况比较多。相信很多人都有过这样一段“蘑菇”的经历，这不一定是什么坏事，尤其是当一切刚刚开始的时候，当几天“蘑菇”，能够消除我们很多不切实际的幻想，让我们更加接近现实，看问题也更加实际。
根据上述定义，下列不属于蘑菇管理的是（ ）。
A.刚进公司的小杨，每天负责一些打杂跑腿的工作。
B.新入职的小王，在工作时认真负责，但是同时却经常在不属于他的问题时收到一些无故地指责。
C.刚入职的小红，因为工作能力突出受到了公司的领导的重视，在很多场合都受重用，帮助她成长。
D.小钟在原来的公司不满意，跳槽到新公司后却发现不被重视，有问题了又常被无端地指责。

54.组织目标管理就是组织的高层主管与下级成员一起协商，把管理系统的总任务转化为组织的共同目标，由此决定上下级的责任和分目标，并把这些目标作为组织经营管理，评估和奖励各部门、单位和个人所作贡献的依据，从而最大限度地调动所属部门、单位、人员的积极性、主动性和创造性，为实现组织的总目标各负其责、各尽所能的一种管理方法。
根据上述定义，下列属于组织目标管理的是（　　）。
A.刚进公司的小杨，对于公司上级的工作总是不服从，不服从组织地协调，造成部门工作效率的下降。
B.新入职的小王，凭借着他的超强的销售能力，获得了销售冠军。
C.某公司管理层将复杂的项目通过开研讨会的形式商议拆分为不同的部分进行权责分工，协调各部门员工来提升工作效率。

D.小吴在学校是个热心肠的同学，与同学互帮互助来一起提升学习成绩。

55.融资方式是指企业融通资金的具体形式。融资方式越多意味着可供企业选择的融资机会就越多。如果一个企业既能够获得商业信用和银行信用，又能够同时通过发行股票和债券直接进行融资，还能够利用贴现、租赁、补偿贸易等方式融资，那么就意味着该企业拥有更多的机会筹集到生产经营所需资金。
根据上述定义，下列不属于融资方式的是（ ）。
A.学校资金不足，通过往届优秀毕业生的捐款新做了一栋教学楼。
B.中小企业融资租赁是指出租方根据承租方对供货商、租赁物的选择，向供货商购买租赁物，提供给承租方使用，承租方在契约或者合同规定的期限内分期支付租金。
C.中小企业融资双方为了达成交易，可向银行申请签发银行承兑汇票，银行经审核同意后，正式受理银行承兑契约，承兑银行要在承兑汇票上签上表明承兑字样或签章。
D.中小企业进行股权出让中小企业融资，为了引入新的合作者，吸引直接投资。

逻辑判断

（共10题，每题1分，计10分）

每道题给出一段陈述，这段陈述被假设是正确的，不容置疑的。要求你根据这段陈述，选择一个答案。注意：正确的答案应与所给的陈述相符合，不需要任何附说明即可以从陈述中直接推出。

56只要不刮台风，男篮世界杯就会如期进行。
下列哪项正确地表达了上述断定？（ ）
Ⅰ.如果男篮世界杯如期进行，那么一定没刮台风。
Ⅱ.倘若男篮世界杯没有如期进行，则一定刮台风。
Ⅲ.除非刮台风，否则男篮世界杯会如期进行。
A.只有Ⅰ和Ⅱ
B.只有Ⅰ和Ⅲ
C.只有Ⅱ和Ⅲ
D.Ⅰ、Ⅱ和Ⅲ

57某台球俱乐部共有100名会员，俱乐部主要活动项目有斯诺克、九球等。
(1)有的人会打斯诺克；
(2)并非所有的人会打斯诺克；
(3)03号会员不会打斯诺克。
这三个命题中只有一个是真的，以下哪项正确表示该俱乐部会打斯诺克的人数？（ ）
A.100人都会打
B.100人中没人会使用
C.仅有一人会打
D.不能确定

58某大学海外学院宿舍住四个大学生，他们来自三个国家美国、英国、法国，这四个大

学生都是美食爱好者，分别喜欢沙茶面、寿司、披萨和汉堡。其中：
①喜欢沙茶面的学生单独来自美国
②喜欢寿司的学生不是来自英国
③喜欢披萨的学生和另外某个学生来自同一个国家
④喜欢汉堡的学生和喜欢披萨的学生不是来自同一个国家
以上条件可以推出喜欢披萨的学生来自哪个国家？（　　）
A.美国
B.英国
C.法国
D.英国和法国都有可能

59所有福建人都有闽南口音。
已知上述断定为假，以下不能确定真假的是：（　　）
I.并非有的福建人有闽南口音
II.有些福建人没有闽南口音
III.所有福建人都没有闽南口音，这不可能
A.I、II
B.I、III
C.II、III
D.I、 II、III

60.小王：除非所有的电影都必然有畅销的市场，否则有些电影可能难以打开市场。
小赵：我不同意你的看法。
下列哪项确切地反映了小赵的看法？（　　）
A.尽管有些电影可能没有畅销的市场，但是所有的电影都必然可以打开市场
B.尽管有些电影可能没有畅销的市场，但是有些电影必然可以打开市场
C.尽管所有的电影可能没有畅销的市场，但是有些电影可能难以打开市场
D.虽然有些电影可能有畅销的市场，但是有些电影还是难以打开市场

61.除非波音公司提升波音737max的安全保障能力，否则会严重的影响其国际市场。只有国际市场订单稳定，波音公司才能渡过这次信任危机。
由此可以推出（ ）
A. 如果提升了安全保障能力，那么波音公司就能渡过这次信任危机
B. 只有不影响国际市场，波音公司的安全保障能力才能提升
C. 如果波音公司渡过了这次信任危机，那么说明其国际市场订单稳定
D. 如果国际市场订单稳定，那么波音公司一定能渡过这次信任危机

62.森林警局抓捕了四个偷猎者，分别为甲、乙、丙和丁，对于被猎杀的藏羚羊，四个偷猎者各有说辞：
甲说：我们中有人猎杀了藏羚羊；
乙说：我们四个都没有猎杀藏羚羊；

丙说：乙和丁至少有一人没有猎杀藏羚羊；
丁说：我没猎杀藏羚羊。
如果四个偷猎者中有两个说的是真话，有两个说的是假话，则说真话的是（ ）。
A. 说真话的是甲和丙　　B. 说真话的是甲和丁
C. 说真话的是乙和丙　　D. 说真话的是乙和丁

63.不让孩子输在起跑线上，是当代父母的心愿。各种针对中小学培训的机构，如雨后春笋般涌现。爱子心切的爸妈为孩子报各种培训班，量身定制成长方案。但是培训机构良莠不齐，很多专职教师并没有专业的教师资格证，大都从大学生兼职“转岗”而来，教学内容也没有统一标准。有些教师使用不成熟的教学方法，反而使学生的学习兴趣大打折扣，所以为孩子报培训班弊大于利。
以下哪一项事例最能支持上述论证（ ）。
A. 小孙的父母为孩子选择了一家知名的培训机构，这使得小孙心理压力过大，产生了逆反心理
B. 不同学龄段的孩子学习任务各有不同，所以教师小王因材施教制定了不同学龄段的学习方法
C. 教师小胡用有趣的图片向孩子解释生涩难懂的文字概念，引导孩子正确理解概念的含义
D. 教师小明运用题海战术去培养孩子的做题能力，超强的刷题量使得孩子对学习产生了恐惧

64.某县为了响应农村老人老有所依政策，在 2016 年、2017年先后建成了两个养老院，2016年底共登记养老人数170余个，到 2017 年底共登记养老人数400个。2018 年该县又在新区建立了第三个养老院，于 2018 年初落成开放。截止 2018 年底，全县共计登记养老人数760余万个。县政府由此认为，修建养老院是有效果的，因为在此3年间，到养老院登记养老信息的老人增加了近两倍。
以下哪项如果为真，最能削弱上述结论（ ）。
A. 养老院要不断维修设备，维护成本极高，这将导致本县其他基础设施建设
B. 邻县附近村庄很多孤寡老人也在本县养老院登记了养老信息
C. 很多在第一个养老院登记信息的老人又去另外两个养老院登记了信息
D. 本县新区建设发展迅速，3 年间很多在外务工人员大量回流

65.这几年学生的作业量越来越多，小学生晚上做作业就要做到十点多。为此部分家长在网上反映，表示学生现在的压力太大，作业太多，孩子都没有自己的时间，更没有自己的童年，童年就是做作业。为此，教育部针对学生作业多的问题出台了相关的减负政策为学生们减轻作业负担，还他们一个童年。然而，政策出台后，学生们的作业量不但没有减少，反而和以前比作业更多了。
以下哪项最有可能是上述现象出现的原因？
A.政策发布后，政策效果有一定的滞后性
B.为了提高升学率，老师不顾发布的政策，继续为学生增加作业
C.作业量减少了但是题目难度相比以前增加了很多

D.老师刻意延长上课时间

第四部分 数量关系

数学运算

(共10题，每题0.8分，计8分)

66.商场新进一批运动服,当售出全部的60%,恰好收回全部成本的80%;由于换季余下的运动服准备打折出售，当商场将这批运动服全部售出时,商店共盈利28%。问余下的运动服打了几折？

A.7.5折　　B.8折

C.8.5折　　D.9折

67.某办公室中8人中有3人喜欢打篮球。如果从中任意选出3人，其中至少有一人喜欢打篮球的概率是多少？

A.5/28　　B.23/28

C.16/56　　D.45/56

68.某单位买了34个大小相同的柚子作为中秋福利，该单位总共有8人，若每人至少分得4个，总共有多少种分发？

A.16　　B.24

C.36　　D.48

69.2019年的3月1号是周五，则2004年3月1号是周几？

A.周一　　B.周二

C.周日　　D.周四

70.一次考试共有4道试题.做对第1、2、3、4, 题的分别占参加考试人数的96%、80%、83%、75%.那么此次考试中都做对的人至少占总人数的百分之几？

A.66%　　B.28%

C.34%　　D.15%

71. 如图所示，$\frac{1}{4}$圆OAB、$\frac{1}{4}$圆O_1A_1B的半径分别为6cm、4cm，且四边形O_1BOC为矩形，则图中阴影部分的面积为（ ）cm^2。（$\pi \approx 3.14$）

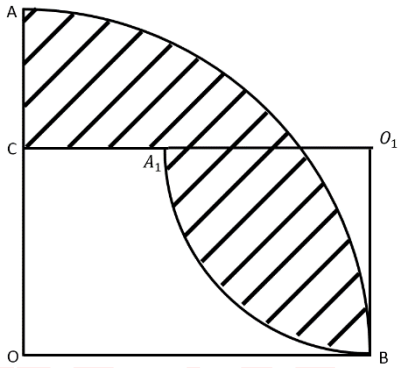

A.14.82　　B.15.26

C. 16.82　　D.17.18

72. 一项工程，如果甲、乙、丙分别单独做，甲10天完成，乙15天完成，丙12天完成。现三人合作2天，丙有事退出，甲乙继续完成工程，期间甲因事中途休息，结果从工程开始到结束一共8天完成任务。甲中途休息了几天？（　　）

A.1　　B.3

C.4　　D.5

73. 中秋节快到了，商店将65个月饼装进三种包装盒，共用了9个包装盒刚好装完。已知大包装盒每个装9个，中包装盒每个装5个，小包装盒每个装3个。问用了几个大包装盒？（　　）

A.4　　B.5

C.6　　D.7

74. 篮子里有苹果和香蕉两种水果若干个，将这些水果分发给15人，每人最少拿一个，最多拿两个不同的水果。已知有10个人拿到了苹果，有9人拿到了梨，最后全部分完。那么，有（　　）人只拿到了苹果。

A. 4　　B. 5

C. 6　　D. 7

75. 小华、小图、小梦到图书馆借书，甲每隔4天去一次，乙每隔5天去一次，丙每8天去一次，这次他们三人在图书馆同时见面是星期五，那么下次三人在图书馆同时见面是(　　)。

A.星期三　　B.星期四

C.星期五　　D.星期六

第五部分 资料分析

(共10题，每题0.8分，计8分)

一、2012 年全社会固定资产投资 374676 亿元，比上年增长 20.3%。其中，固定资产投资（不含农户）364835 亿元，增长 20.6%；农户投资 9841 亿元，增长 8.3%。东部地区投资 151742 亿元，比上年增长 16.5%；中部地区投资 87909 亿元，增长 24.1%；西部地区投资 88749 亿元，增长 23.1%；东北地区投资 41243 亿元，增长 18.3%。

在固定资产投资（不含农户）中，第一产业投资 9004 亿元，比上年增长 32.2%；第二产业投资 158672 亿元，增长 24.3%；第三产业投资 197159 亿元，增长 20.6%。

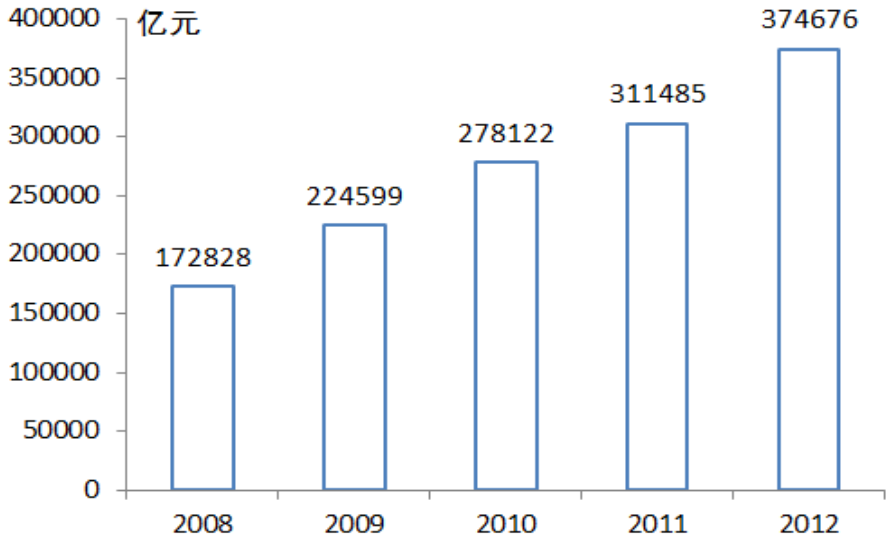

76.2011年，东部地区投资约为东北地区投资几倍？

A.1.69　　B.1.77

C.3.5　　D.3.74

77.2012年，中部地区投资同比增长对全社会固定资产投资增长贡献约为？

A.10%　　B.27%

C.35%　　D.50%

78.2012年，东、中、西三个地区固定投资占全社会固定投资比重以上一年相比下降的有几个？

A.1　　B.2

C.3　　D .无法确定

79.2011年，以下固定资产投资最多的是？

A.东部地区投资　　B.中部地区投资

C.第一产业投资　　D.第二产业投资

80.下列说法正确的是（　　）。

A.2012年农户投资所占全社会固定资产投资的比重较2011年有所增加

B.2008—2012年全社会固定资产总投资不到100万亿

C.以第二产业投资相比，2012年第三产业投资比去年同期相比上涨更多

D.2008—2012年全社会固定资产投资增长量最多的一年是2009年

二、经核算，2017年全国文化及相关产业增加值为34722亿元，占GDP的比重为4.2%，比上年提高0.06个百分点；按现价计算（下同），比上年增长12.8%，比同期GDP名义增速高1.6个百分点。2017年文化及相关产业增加值保持平稳快速增长，占GDP比重稳步上升，在加快新旧动能转换、推动经济高质量发展中发挥了积极作用。

2017年文化制造业增加值为12094亿元，比上年增长1.7%，占文化及相关产业增加值的比重为34.8%；文化批发零售业增加值为3328亿元，增长15.9%，占比为9.6%；文化服务业增加值为19300亿元，增长20.4%，占比为55.6%。

2017年文化及相关产业增加值

类别名称	绝对额（亿元）
文化及相关产业	34722
第一部分 文化核心领域	22500
一、新闻信息服务	4864
二、内容创作生产	7587
三、创意设计服务	4537
四、文化传播渠道	2896
五、文化投资运营	190
六、文化娱乐休闲服务	2426
第二部分 文化相关领域	12222
七、文化辅助生产和中介服务	5973
八、文化装备生产	1981
九、文化消费终端生产	4268

注：绝对额按当年价格计算。

81. 2017年，全国GDP约为多少万亿元？

A. 56.5　　B. 69.2

C. 95.7　　D. 82.7

82. 2016年，文化制造业增加值约为：

A. 11892　　B. 9583

C. 10325　　D. 9865

83. 2017年，新闻信息服务产业增加值约是文化投资运营的多少倍？

A. 30　　B. 22

C. 26　　D. 15

84. 2017年，新闻信息服务、内容创作生产及创意设计服务三个产业增加值总额为：

A. 15672　　B. 16988

C. 17352　　D. 18678

85.下列说法错误的是：

A. 2016年，全国文化及相关产业增加值占GDP的比重为4.14%

B. 2017年，文化制造业增加值占文化及相关产业增加值的比重高于文化批发零售业

C. 2016年，文化服务业增加值约是文化批发零售业增加值的5.58倍

D. 2017年，文化消费终端生产产业增加值占文化及相关产业增加值的比重约1.23%

第六部分　写作

法国大画家雷杜德，一生只画玫瑰，任凭环境如何变化、时代如何更替，他都心无旁骛，只管画他的玫瑰。他一生记录了170多种玫瑰的姿容，组成了《玫瑰图谱》画册。在此后的180多年里，以各种语言和文字出版了200多种版本，平均每年都有新的版本问世。

雷杜德，他一生只做了一件事，那就是画他的玫瑰，但他画的玫瑰成了画中的极品，无人逾越。雷杜德以他无比的执着，一生只挖一口井，即画玫瑰这口井，不管其他井里有黄金还是有白银，他都不为所动，不心生贪念，一生只坚守画玫瑰这口井，终于在这口井里“挖”出了玫瑰的芬芳和美丽。

根据对所给资料的理解和体会，以耐心为话题为题，联系实际写一篇文章。(30分)要求：自拟题目，切合题意，中心突出，内容充实，逻辑严谨，语言顺畅；1000字以上。